ĐỀ CƯƠNG ÔN TẬP HỌC KÌ 1 TOÁN LỚP 4

TRẮC NGHIỆM

Câu 1. Số 45 317 đọc như thế nào?

A. Bốn mươi năm nghìn ba trăm mười bảy

B. Bốn lăm nghìn ba trăm mười bảy

C. Bốn mươi lăm nghìn ba trăm mười bảy

D. Bốn năm nghìn ba một bảy

Câu 2. Tìm số lớn nhất trong các số sau: 5 784; 6874; 6 784; 5748.

A. 5785 B. 6 874 C. 6 784 D. 5 748

Câu 3. Số nào sau đây được đọc là "***bốn trăm linh hai nghìn bốn trăm hai mươi*" ?**

A. 40 002 400 B. 4 020 420 C. 402 420 D. 240 420

Câu 4. Số nào trong các số dưới đây có chữ số 9 biểu thị cho 9000?

A. 93 574 B. 29 687 C.17 932 D. 80 296

Câu 5. 5 tấn 8kg = …… kg

A. 580kg B. 5800kg C. 5008kg D. 58kg

Câu 6. 59 tấn 7 tạ = ...yến

A. 59 700 B. 5 970 C. 59 7000 D. 59 007

Câu 7. $2m^2$ $51dm^2$ = …... dm^2

A. 2 501 B. 2 510 C. 2 051 D. 251

Câu 8. $506dm^2$ = ...cm^2

A. 5060 B. 50600 C. 56 D. 506000

Câu 9. Chọn dấu >; <; = thích hợp điền vào ô trống.

$5173dm^2$ ☐ $50m^2$ $73dm^2$

Câu 10. Tính trung bình cộng của hai số 42 và 26.

A. 35 B. 34 C. 36 D. 37

Câu 11. Năm nay, Minh 12 tuổi, chị lớn hơn Minh 4 tuổi. Tính trung bình cộng số tuổi của hai chị em.

A. 12 tuổi B. 13 tuổi C. 14 tuổi D. 15 tuổi

Câu 12. Trung bình cộng của hai số là 27. Số bé là 19 thì số lớn là bao nhiêu?

A. 54 B. 35 C. 46 D. 23

Câu 13. Hình vẽ bên có?

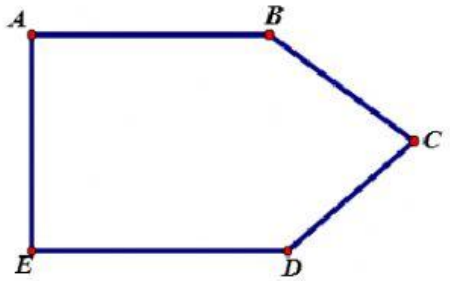

A. Hai đường thẳng song song. Hai góc vuông.

B. Hai đường thẳng song song. Ba góc vuông.

C. Ba đường thẳng song song. Hai góc vuông.

LIVEWORKSHEETS

D. Ba đường thẳng song song. Ba góc vuông.

Câu 14. Đúng ghi Đ, sai ghi S vào ô trống.

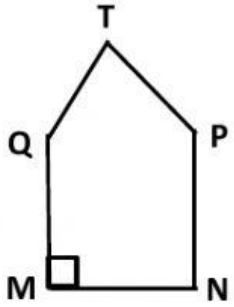

Cạnh QT vuông với cạnh TP. ☐

Cạnh QM vuông góc với cạnh PN. ☐

Câu 15. Nối ý ở cột A với ý thích hợp ở cột B:

Cho hình chữ nhật CNBQ

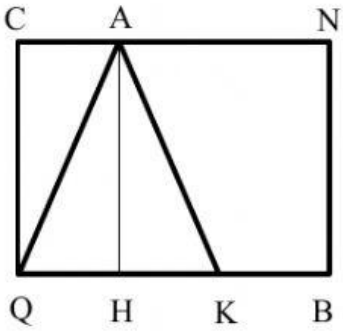

Cột A	Cột B
Cạnh AH vuông góc với	Cạnh CQ
	Cạnh AK
Cạnh NB song song với	Cạnh QB
	Cạnh AQ

Câu 16. Kết quả của phép nhân 45 × 11 là:

A. 90 B. 195 C. 495 D. 594

Câu 17. Chu vi của hình vuông là 16m thì diện tích sẽ là:

A. 16m B. $16m^2$ C. 32m D. 12m

Câu 18. Năm 2022 là thế kỉ thứ bao nhiêu?

A. XIX B. XX C. XVIII D. XXI

Bài 19. Biểu thức thức 24 : (3 x 4) có giá trị bằng biểu thức nào dưới đây?

A. 24 : 3 : 4 B. 24 x 3 : 4 C. 24 x 4 : 3 D. 24 : 3 x 4

Câu 20. Biểu thức nào sau đây có giá trị bằng với biểu thức 200 : (5 x 4)?

A. 200 : 5 : 4 B. 200 : 5 x 4 C. 200 : 4 x 5 D. 200 x 5 x 4

TỰ LUẬN

Câu 1: Đọc số sau:

123 456:……...

23 456 789: ……

506 789 505: ……...

Câu 2: Viết số sau:

LIVEWORKSHEETS

- Bốn mươi lăm triệu: ……..…….....
- Hai trăm năm mươi sáu triệu bốn trăm: ……..……...
- 8 triệu, 8 trăm nghìn, 8 trăm và hai đơn vị: ……..……..

Câu 3: Đặt tính rồi tính.

a) 352 647 + 419 172 379 454 – 126 798 837 161 + 75 934 726 485 – 52 936;

……

……

……

b) 1798 x 45 234 x 709 2912 : 28 7344 : 36

……

……

……

……

……

……

Câu 4. Tính giá trị biểu thức.

a) 55 x 11 + 12 382 b) 78 085 – 31 284 : 4

……

……

……

……

c) 125 x 200 – 160 d) (64 275 + 98 673) : 3

……

……

……

e) 1634 – 243 : 9 f) 101 x 405 + 5 969

……

……

……

g) 11 497 + 11 x 98 h) 7 955 : 5 + 145

……

……

……

Câu 5. Tìm x.

a) $x + 2581 = 4621$ b) $x - 935 = 532$

LIVEWORKSHEETS

.....

.....

.....

c) $x : 255 = 403$ d) $42 \times x = 15\,792$

.....

.....

.....

e) $x : 341 = 52$ f) $37\,851 - x = 19\,292$

.....

.....

.....

Câu 6. Tính bằng cách thuận tiện nhất.

a) 25 x 2022 x 4 b) 789 x 95 – 789 x 85

.....

.....

.....

c) 490 x 365 – 390 × 365 d) 578 x 101

.....

.....

.....

e) 1540 : 5 + 1460 : 5 f) (55 x 72) : 9

.....

.....

.....

Câu 7. Một tổ sản xuất trong 15 ngày đầu, mỗi ngày làm được 30 sản phẩm. Trong 10 ngày sau, mỗi ngày làm được 150 sản phẩm. Hỏi trung bình mỗi ngày tổ đó sản xuất được bao nhiêu sản phẩm?

.....

.....

.....

.....

.....

.....

.....

LIVEWORKSHEETS

Câu 8. Một cửa hàng có 52 hộp bánh AFC, mỗi hộp bao gồm 8 gói bánh. Cửa hàng đã bán hết 28 hộp bánh AFC. Hỏi cửa hàng còn lại bao nhiêu gói bánh AFC?

.....

.....

.....

.....

.....

.....

.....

Câu 9. Một cửa hàng nhập về 15 288 quyển vở. Tháng thứ nhất cửa hàng bán được 8 540 quyển vở, tháng thứ hai bán được số quyển vở bằng $\frac{1}{4}$ số quyển vở của tháng thứ nhất. Hỏi sau hai tháng, cửa hàng còn tồn lại bao nhiêu quyển vở?

.....

.....

.....

.....

.....

.....

.....

Câu 10. Vào đợt phong tỏa toàn Thành phố vì dịch COVID-19, nhóm thiện nguyện của chú Hùng nhận được 24 145kg gạo từ các mạnh thường quân. Tuần đầu, nhóm đã hỗ trợ 5 230kg gạo cho các khu vực. Tuần thứ hai, nhóm đã hỗ trợ số gạo gấp đôi số gạo tuần đầu. Hỏi nhóm thiện nguyện còn lại bao nhiêu ki-lô-gam gạo?

.....

.....

.....

.....

.....

.....

.....

Câu 11. Một cửa hàng nhập về 50 thùng nước muối để bán trong đợt dịch, mỗi thùng có 20 chai. Cửa hàng đã bán được 22 thùng. Hỏi cửa hàng đó còn lại bao nhiêu chai nước muối?

.....

.....

.....

.....

.....

LIVEWORKSHEETS

……

……

Câu 12. Để lát nền một căn phòng hình chữ nhật có chiều dài 5m, chiều rộng 4m, người ta dùng gạch men hình vuông cạnh 20cm. Mỗi viên gạch giá 27500đ. Tính số tiền mua gạch để lát đủ căn phòng đó?

……

……

……

……

……

……

……

……

……

Câu 13. Tích của hai số là 4780. Nếu gấp thừa số thứ nhất lên 5 lần, thừa số thứ hai lên 2 lần thì tích mới là bao nhiêu ?

……

……

……

……

Câu 14. Tổng của hai số là số lớn nhất có ba chữ số. Hiệu của hai số đó là 75. Tìm hai số đó.

……

……

……

……

Câu 15. Hiệu của hai số là 136. Nếu lấy số thứ nhất cộng với số thứ hai rồi cộng với tổng của chúng thì được 2 020. Tìm số bé.

……

……

……

……

……

Câu 16. Một thửa ruộng hình chữ nhật có nửa chu vi là 240m. Tìm chiều dài và chiều rộng của thửa ruộng biết nếu tăng chiều rộng 5m và giảm chiều dài 5m thì thửa ruộng đó thành hình vuông.

……

……

……

LIVEWORKSHEETS

.....
.....
.....
.....
.....
.....
.....

Câu 17. Tổng của hai số là số bé nhất có ba chữ số, hiệu của hai số là 32. Tìm hai số đó.

.....
.....
.....
.....

LIVEWORKSHEETS