1. จงหาพื้นที่ของรูปสี่เหลี่ยมจากรูป

1) รูป ☐ จัตุรัส

ด้านยาวด้านละ 8 เซนติเมตร

2) รูป ☐ จัตุรัส

เส้นทแยงมุมยาว 12 เซนติเมตร



3) รูป ☐ ผืนผ้า



4) รูป ☐ ด้านขนาน

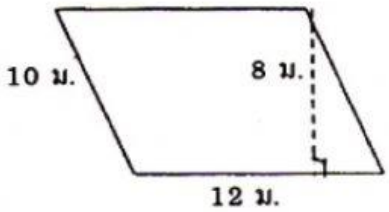

5) รูป ☐ คางหมู

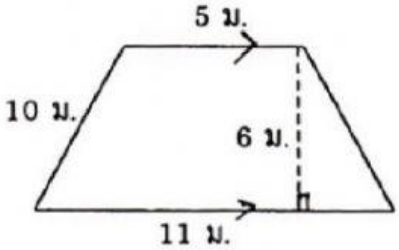

6) รูป ☐ ขนมเปียกปูน

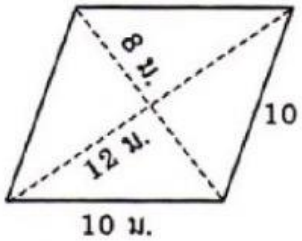

7) รูป ☐ รูปว่าว

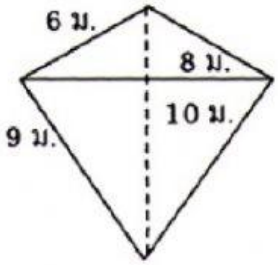

8) รูป ☐ รูปว่าว

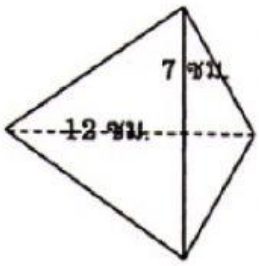

9) รูป ☐ ใด ๆ

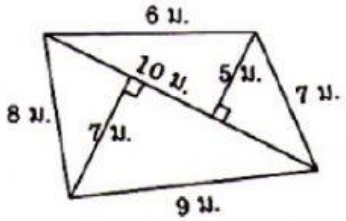

10)

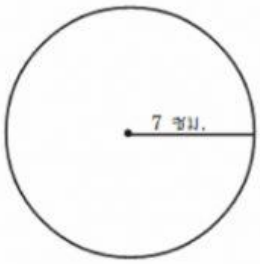

LIVEWORKSHEETS