ใบงานที่ 36 เรื่อง ชนิดของมุม

กลุ่มสาระการเรียนรู้ คณิตศาสตร์

วันที่.....เดือน.....พ.ศ. .....

ชื่อ.....นามสกุล.....ชั้น.....เลขที่.....

โรงเรียนพระยามนธาตุราชศรีพิจิตร สำนักงานเขตบางบอน กรุงเทพมหานคร

.....

1. ให้นักเรียน ใช้กระดาษที่พับเป็นมุมฉาก วัดมุมจากแบบฝึกหัด ข้อ 1 ใน หนังสือเรียนวิชาคณิตศาสตร์ หน้าที่ 216 – 217 แล้วตอบว่าเป็นมุมชนิดใด

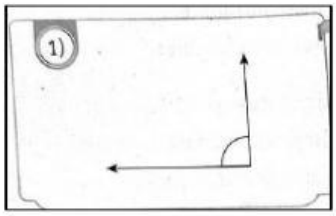

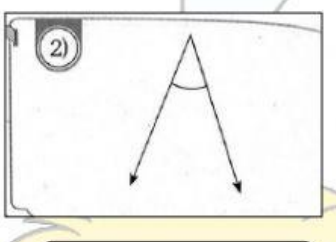

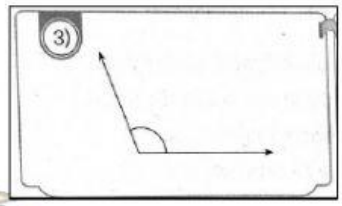

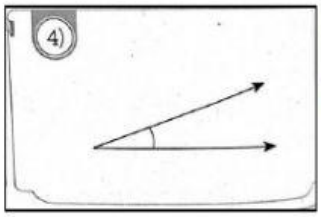

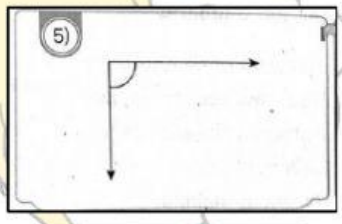

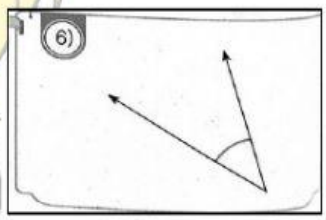

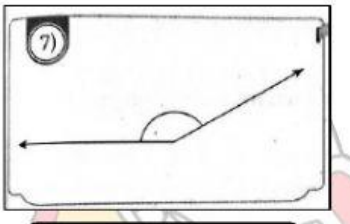

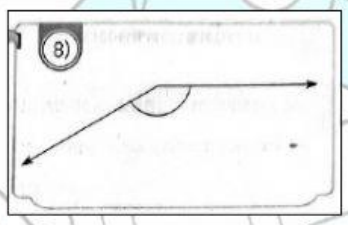

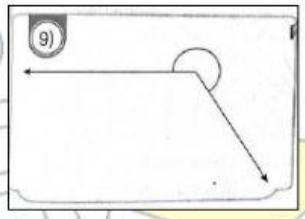

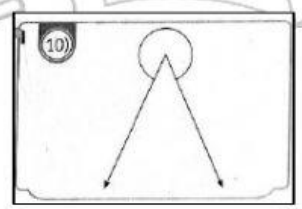

LIVEWORKSHEETS