CON HOÀN THÀNH NHIỆM VỤ TRONG THỜI GIAN 15 PHÚT. ĐIỀN ĐÁP ÁN ĐÚNG VÀO Ô

Thực hiện phép tính

$5-9=$

$2-(-6)=$

$-7-9=$

$(-37)-14-26+37$
$=$

$(-15)-23+(-85)-77$
$=$

$(-6)+5+(-4)+25$
$=$

$(-17)+14+36+7$
$=$

$(-23)+8+(-7)+22$
$=$

$(-4)+6+(-16)+14$
$=$

$5-(-6)-10=$

$12-7+(-6)=$

$(-9)-(-3)+(-6)$
$=$

TRỐNG.

LIVEWORKSHEETS

ĐỀ 16

Thực hiện phép tính

1. $\boxed{\text{Số}}$?

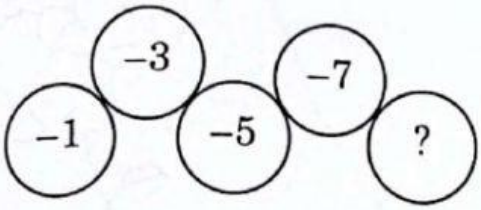

2. Tìm số còn thiếu trong hình:

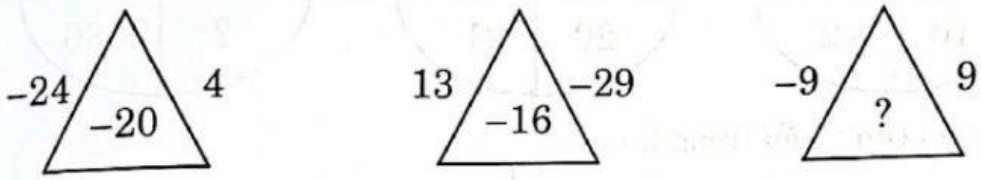

3. Viết số thích hợp vào vị trí dấu "?":

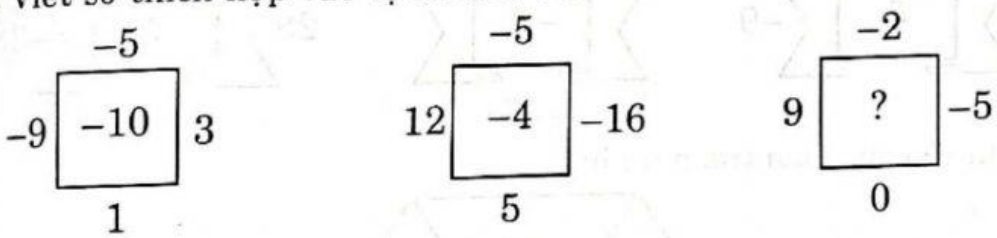

4. Số nào còn thiếu trong hình?

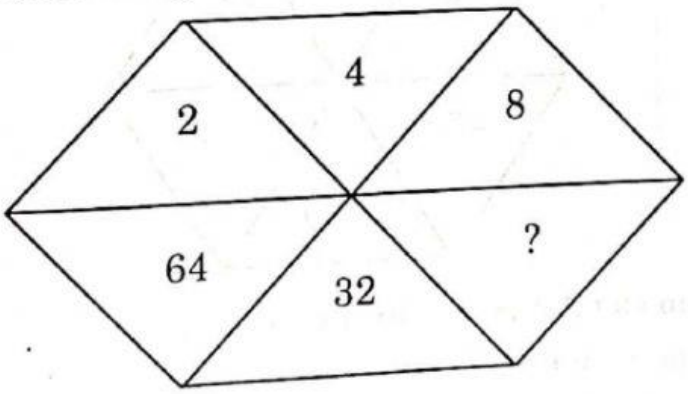

5. Tìm $x \in \mathbb{Z}$, biết:

$$-2022 < (x - 2021)(x - 2021) < 1.$$

LIVEWORKSHEETS