Name : _____

Class : _____

Teacher : _____

MATH MID-TERM EXAMINATION

Odd Semester, September 2021

Academic Year of 2021/2022

I. **Choose A, B, or C for the best answer. (10 Points)**



1. Tentukan pecahan yang tepat untuk kotak yang diarsir.
   a. 6/10
   b. 4/10
   c. 3/5
   d. 2/5

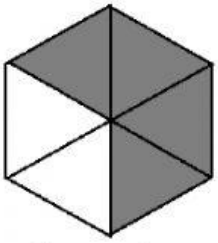

2. Tentukan pecahan yang tepat untuk bagian yang putih.
   a. 2/6
   b. 4/6
   c. 1/3
   d. 2/3

LIVEWORKSHEETS

3. Manakah gambar yang tepat untuk pecahan 3/8.

a. 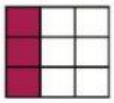

b. 

c. 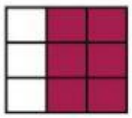

d. 

4. Lengkapilah pecahan dibawah ini.

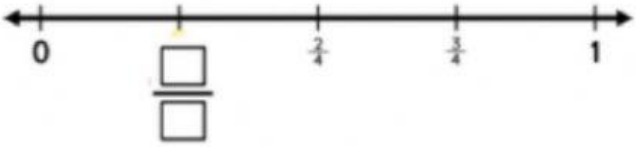

a. 4/4

b. ¼

c. 1

d. 5/4

5. Bisakah kamu lengkapi kotak kosong tersebut, dengan angka-angka pecahan yang tepat ?

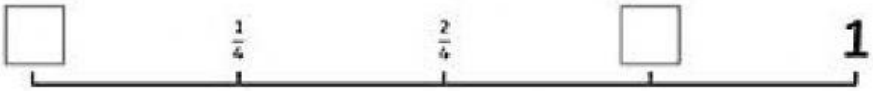

a. 0 dan 3

b. 1 dan ¾

c. 0 dan ¾

d. 1 dan 4/4

LIVEWORKSHEETS

6. Kamu tahu tanda yang tepat untuk membandingkan kedua pecahan tersebut diatas?

$$\frac{2}{8} \bigcirc \frac{4}{8}$$

a. <
b. >
c. =
d. ≤

7. Berapakah hasil penjumlahan pecahan tersebut diatas? Kamu tahu ?

$$\frac{5}{6} + \frac{4}{6} = \boxed{}$$

a. 9/12
b. 9/6
c. 10/6
d. 11/6

8. 50 + 12 = 62, Cobalah untuk menemukan kebalikan dari hitungan tersebut.
   a. 62 + 12 = 74 dan 62 - 12 = 50
   b. 62 – 50 = 12 dan 62 – 12 = 50
   c. 62 + 50 = 112 dan 62 – 50 = 12
   d. 62 + 50 = 112 dan 62 + 12 = 74

9. Kamu tahu angka berapa saja yang hilang ?

a. 10,40,50,80,90
b. 40,50,60,80,90
c. 10,20,30,40,50
d. 40,50,60,70,80

LIVEWORKSHEETS

10. Berapakah 100 + 550 ?

a. 750

b. 600

c. 650

d. 500

II. **Cross (X) T if each of the following statements is TRUE and F if it is FALSE. (10 points)**

1	34 – 5 = 29	**T**	**F**
2	54 – 5 = 49	**T**	**F**
3	84 – 5 = 89	**T**	**F**
4	294 – 5 = 289	**T**	**F**
5	39 + 2 = 41	**T**	**F**
6	38 + 3 = 41	**T**	**F**
7	47 + 4 = 41	**T**	**F**
8	Satu kelas memiliki 24 murid. Mereka sedang bepergian mengunjungi kebun binatang. Guru mereka akan membagi 24 murid tersebut menjadi 4 kelompok. Jadi setiap kelompok akan terdiri dari 6 murid. Benarkah itu ?	**T**	**F**
9	Akan diadakan lomba matematika di sekolah. 1 kelompok harus terdiri dari 5 murid. Sedangkan keseluruhan ada 15 murid. Sehingga nanti akan menjadi 3 kelompok. Betulkah itu?	**T**	**F**
10	35 x 10 = 350	**T**	**F**

LIVEWORKSHEETS

III. **Answer the following questions. (5 points)**

1. 92 + 1 = + 2 = + 3 = - 1 = - 2 = - 3 =
2. Berapakah hasil perkalian 18 x 10 =

   Jawaban tersebut memiliki ratusan, puluhan dan satuan.
3. Tono menghasilkan Rp.20.000,- dari berjualan buah. Dan di dompetnya memiliki Rp.10.000,-. Dapatkah kamu hitung berapa total uang Tono sekarang ?
4. Ali telah menabung hingga memiliki total Rp.25.000,-. Neneknya memberi Ali uang sebesar Rp.12.000,- karena telah membantu membersihkan rumah. Menurut kamu, berapa total uang yang dimiliki Ali saat ini ?
5. Dewi menghasilkan uang sebesar Rp15.000,- dari upahnya mengajar. Kemudian dia menerima tip sebesar Rp.10.000,-. Hitunglah total uang Dewi yang dimilikinya.

LIVEWORKSHEETS