EXERCICIOS RECUPERACIÓN E REPASO
A TERRA E A LÚA

IES DO BARRAL

1. Pon V (verdadeiro) ou F (falso) segundo corresponda. Cantos tipos de movementos ten a Lúa?

- ☐ Un, arredor da Terra.
- ☐ Un arredor da Terra, outro xirando sobre si mesma e outro acompañando ao noso planeta arredor do Sol.
- ☐ Un, xirando sobre si mesma.

2. Identifica as fases da Lúa.

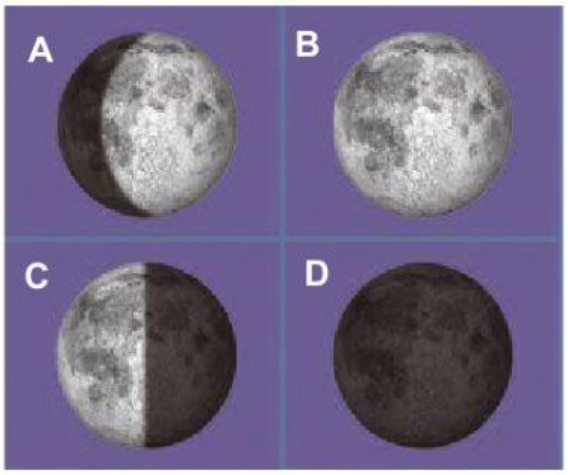

A._____

B._____

C._____

D._____

3. Responde. Cando se produce unha eclipse?

4. **Completa as seguintes frases:**

(a) Cando a Terra está entre o Sol e a Lúa e non podemos ver a Lúa, chámase eclipse de _____ .

(b) Cando a Lúa está entre o Sol e a Terra e non podemos ver o Sol, chámase eclipse de _____ .

(c) Na zona da Terra máis próxima á Lúa prodúcese marea _____ .

5. A Terra dá un xiro completo sobre o seu eixe cada 24 horas. Cantas mareas altas e cantas mareas baixas tera un punto da costa nese tempo.

(a) Número de mareas altas:

(b) Número de mareas baixas:

6. Coloca nos recadros as fases da lúa que correspondan.

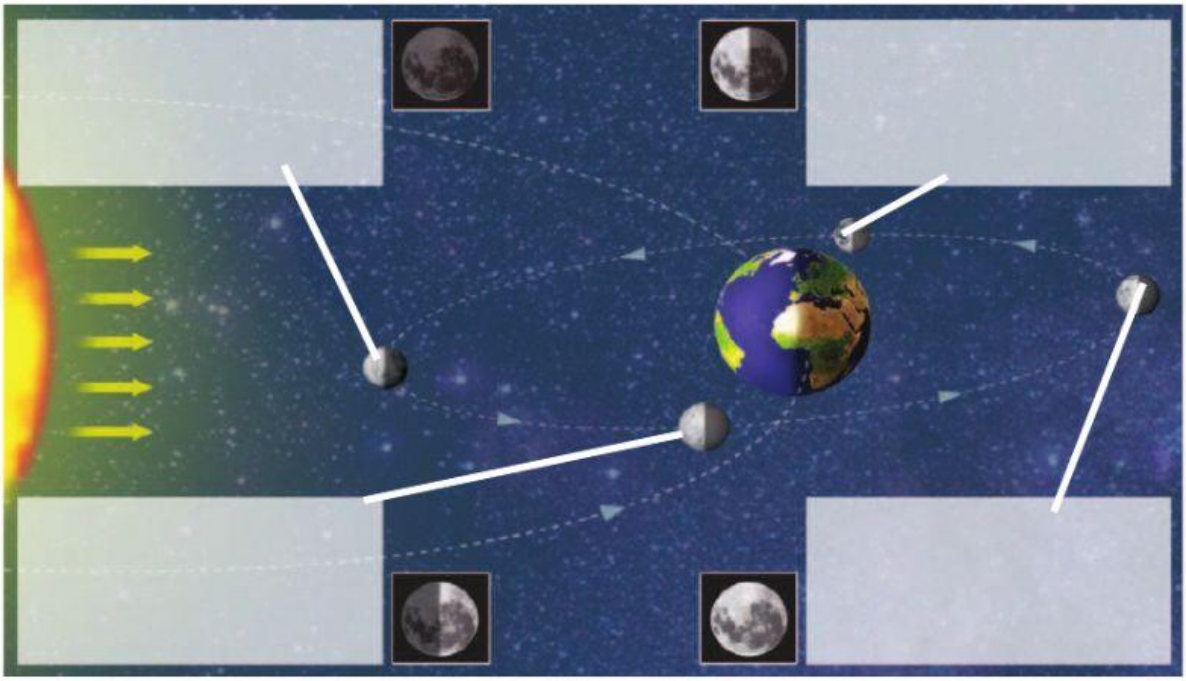
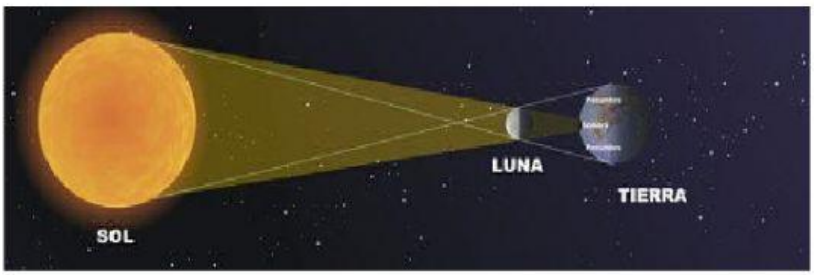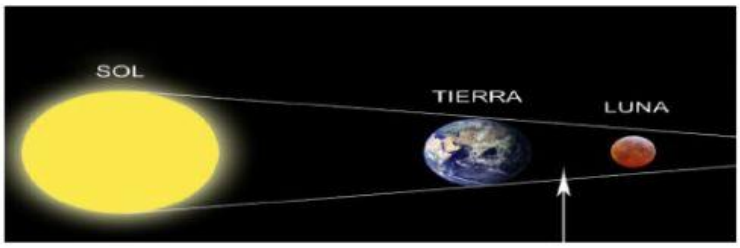
7. Indica o tipo de eclipse no recadro correspondente.