8 Tính:

a) 25 – 5 – 12 = ...

b) 52 – 2 – 17 = ...

c) 73 – 3 – 44 = ...

d) 48 – 8 – 26 = ...

9

Trong hồ có **25** con cá, một số con trốn trong đám rong, còn lại **16** con đang bơi. Hỏi có bao nhiêu con cá trốn trong đám rong?



10 Thử thách.

Số?

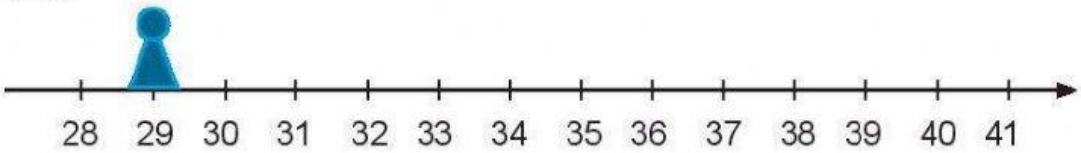

Quân cờ của Nam nằm ở vạch **29**. Nam tung ba quân xúc xắc rồi di chuyển quân cờ theo tổng số các chấm tròn. Muốn di chuyển quân cờ đến vạch **41**, thì mặt trên của quân xúc xắc cuối cùng phải có ..... chấm tròn.



LIVEWORKSHEETS