EXAMEN FINAL DE MATEMÁTICA

Colegio Blas Pascal

NOMBRE Y APELLIDO:_____

1. NOMBRA A CADA UNA DE LAS SIGUIENTES FIGURAS. *(RECTA, PUNTO, SEGMENTO O PLANO)*

_____ _____ _____ _____

2. ESCRIBE EL NOMBRE DE LAS RECTAS SEGÚN SU CLASE *(PARALELA, PERPENDICULAR U OBLICUA)*

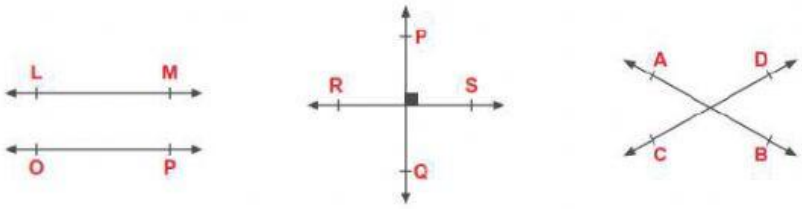

_____ _____ _____

3. COMPLETA LOS ESPACIOS:

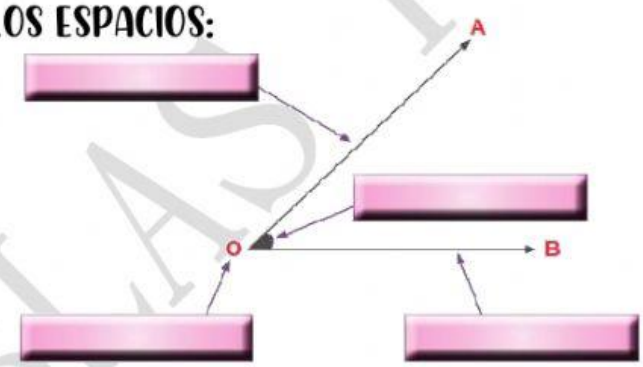

4. ESCRIBE, A QUÉ CLASE DE ÁNGULO CORRESPONDEN SEGÚN SU MEDIDA.

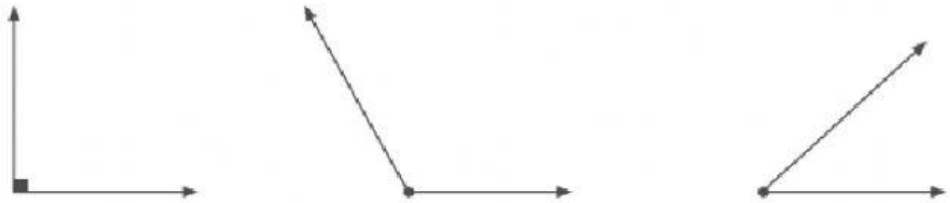

Mide : 90°
Ángulo : _____

Mide : 120°
Ángulo : _____

Mide : 60°
Ángulo : _____

LIVEWORKSHEETS

5. ESCRIBE EL NOMBRE DE CADA TRIÁNGULO SEGÚN LA MEDIDA DE SUS LADOS.

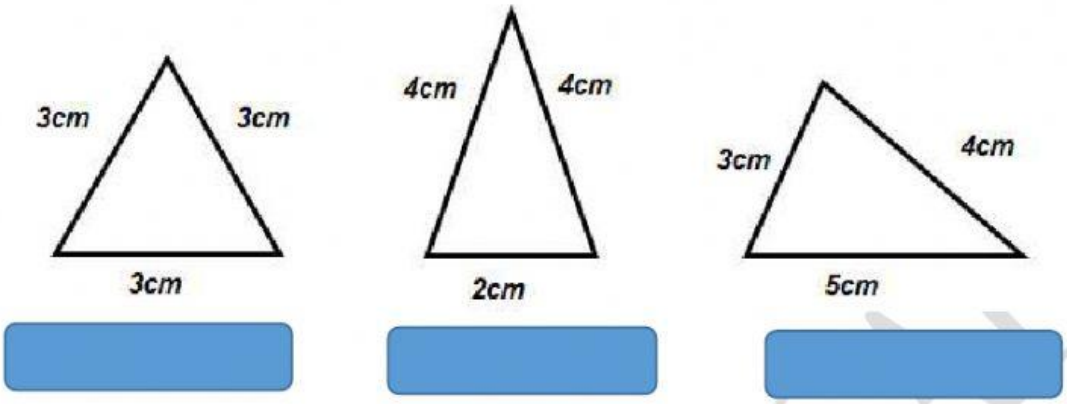

6. CALCULA EL ÁREA DE LOS SIGUIENTES TRIÁNGULOS:

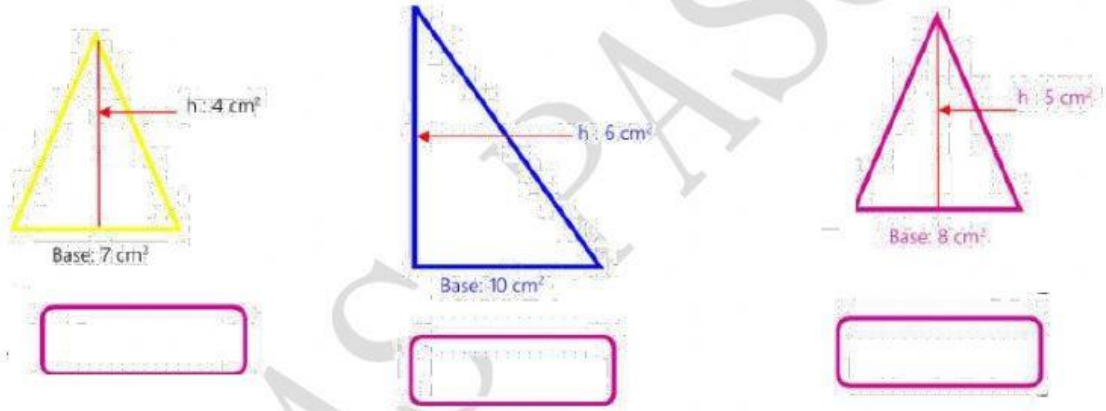

8. COMPLETA EL CUADRO

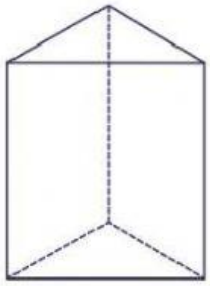	
Bases :	Bases :
Vértices:	Vértices:
Aristas :	Aristas :
Caras :	Caras :

PLAS PASCAL

LIVEWORKSHEETS