HỆ THỐNG TRƯỜNG LIÊN CẤP LÊ QUÝ ĐÔN
TRƯỜNG TIỂU HỌC LÊ QUÝ ĐÔN

Thứ....ngày …. tháng…. năm 2021

PHIẾU ÔN TẬP CUỐI HỌC KÌ I

Môn: Toán

Họ và tên: ……..
Lớp: 1A…….

Bài 1: Tính.

5	9	6	3
-	-	+	+
2	5	0	7
……	……	……	……

5 + 3 = …… 6 + 2 – 5 = ……

8 – 2 = …… 10 – 3 – 5 = …….

Bài 2: Điền dấu >, <, =?

4 ☐ 3 + 1 6 - 2 ☐ 2 + 3 6 - 5 + 7 ☐ 5 + 5 - 2

6 - 3 ☐ 5 1 + 5 ☐ 5 - 0 2 + 4 - 3 ☐ 6 - 0 + 3

Bài 3: Viết phép tính thích hợp vào ô trống.

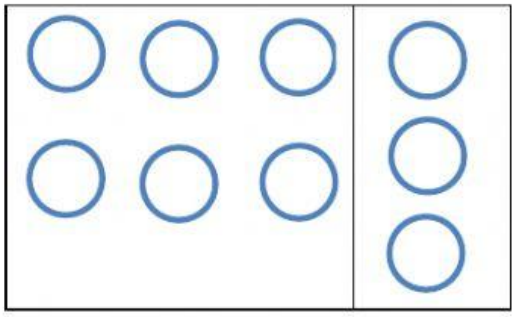

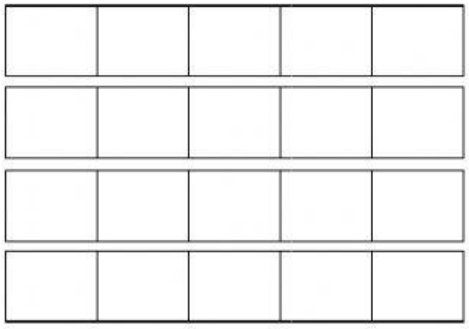

Bài 4: Trong hình vẽ bên có:

…….. hình vuông.

…….. hình tam giác.

…….. hình chữ nhật.

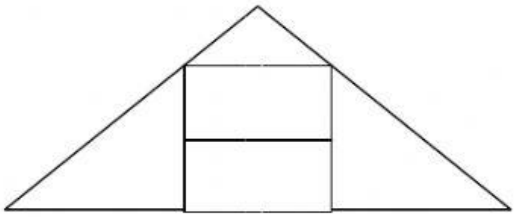

Bài 5: Số?

6 = …… + 1 2 + 5 = 0 + …… 8 >…… + 4

LIVEWORKSHEETS