PHIẾU ÔN TẬP HK1 - KHTN 6 - LẦN 1

1. Đơn vị đo chiều dài trong hệ thống đo lường chính thức của nước ta hiện nay là ……, kí hiệu là ……

2. Quan sát hình 1 và hình 2 bên dưới, em hãy cho biết:

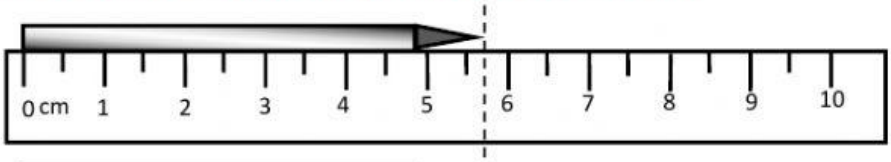

Hình 1

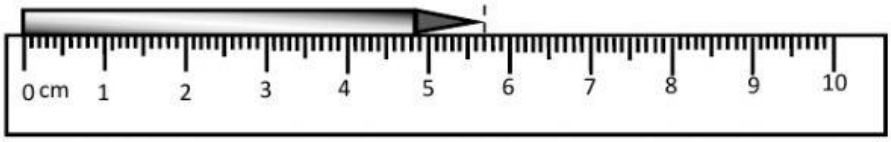

Hình 2

a/. Giới hạn đo và độ chia nhỏ nhất của mỗi thước.

– Hình 1: Thước có GHĐ là …… cm và ĐCNN là …… cm.

– Hình 2: Thước có GHĐ là …… cm và ĐCNN là …… cm.

b/. Dùng hai thước này để đo độ dài của cùng một cây bút chì. Hãy ghi lại kết quả đo.

– Hình 1: Cây bút chì có độ dài là: …… cm = …… m.

– Hình 2: Cây bút chì có độ dài là: …… cm = …… m.

c/. Theo em thì dùng thước trong hình nào đo sẽ chính xác hơn? Giải thích.

……

3. Em hãy cho biết tên gọi của từng loại thước trong các hình bên dưới.

Thước ……

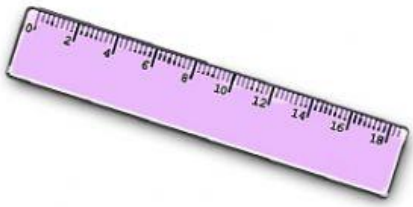

Thước ……

Thước ……

❖ Theo em, loại thước nào ở hình trên sử dụng sẽ hợp lý nhất:

– Để thợ may đo vòng eo của khách hàng: nên dùng thước ……

– Để đo bề dày cuốn SGK Vật lí 6 của em: nên dùng thước ……

– Để đo chiều dài lớp học của em: nên dùng thước ……

4. Em hãy đổi các đơn vị sau.

a/. 1 cm = …… m

b/. 1 dm = …… m

c/. 1 km = …… m

d/. 1 m = …… cm

e/. 1 m = …… mm

f/. 1 m = …… km

LIVEWORKSHEETS