Geometria

Activitats

1. Completa aquesta taula i marca amb una creu la figura correcte en cada cas:

Nom	Nombre de costats	Dibuix
Pentàgon		
	8	

2. Marca amb una creu les figures que no són polígons



3. Digues quins d'aquests polígons són regulars escrivint una R sota de cada figura:

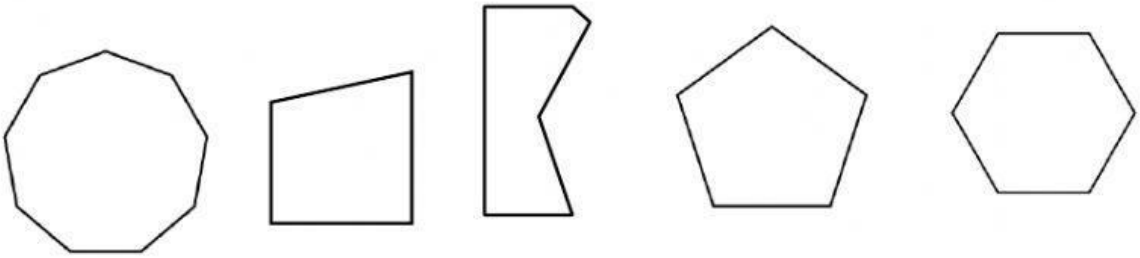

4. Completa amb l'expressió corresponent:

agut, aguts, obtús, obtusos, recte, rectes

a) Els angles dels triangles acutangles són _____ .
b) En el triangle rectangle un dels angles és _____ i els altres _____
c) El triangle obtusangle té un angle _____ i els altres _____.

5. Marca amb una creu les afirmacions que són certes:

a) Un triangle rectangle pot ser també equilàter.

b) Un triangle rectangle pot ser també isòsceles.

c) Un triangle rectangle pot tenir un angle obtús.

d) Un triangle obtusangle pot ser també isòsceles.

e) Un triangle pot tenir dos angles rectes.

f) La suma dels tres angles d'un triangle sempre

és de 180º.

6. Digues el nom de cada triangle segons els costats i segons els angles:

	Segons els costats	Segons els angles
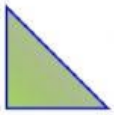		

7. Escriu el nom d'aquests quadrilàters:

a.



b.



c.



d.

e.

f.

g.

8. Digues el nom d'un quadrilàter que té els 4 costats iguals i els **angles iguals per parelles**. _____