ФИЗИКА 9 класс

Фамилия учащегося _____

Класс _____

Графики колебательного движения

Определите величины, характеризующие колебательное движение

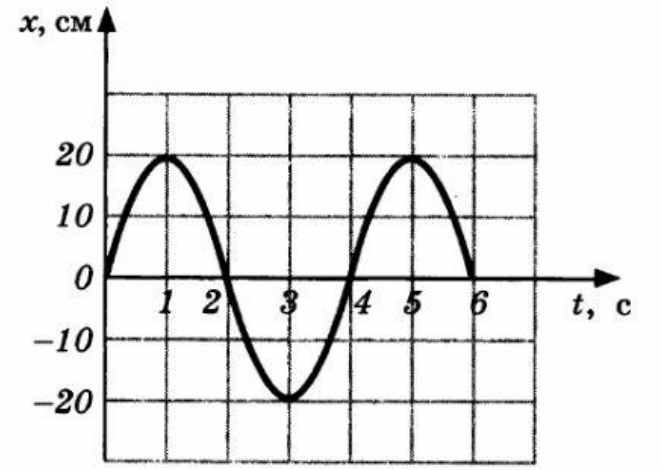

период колебаний **T =** **с**

амплитуда колебаний **A =** **м**

частота колебаний **ν =** **Гц**

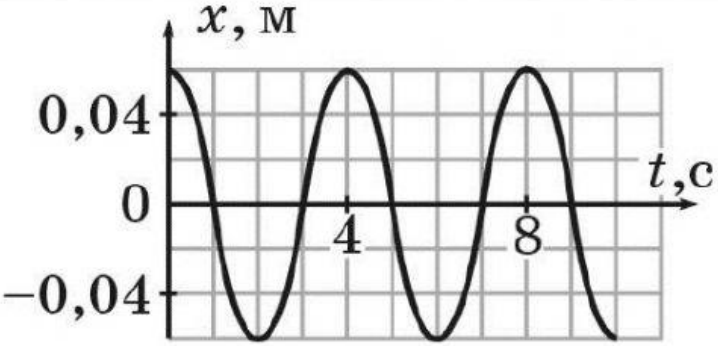

период колебаний **T =** **с**

амплитуда колебаний **A =** **м**

частота колебаний **ν =** **Гц**

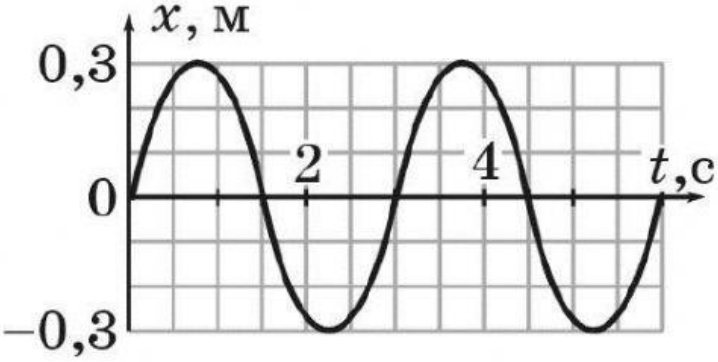

период колебаний **T =** **с**

амплитуда колебаний **A =** **м**

частота колебаний **ν =** **Гц**

LIVEWORKSHEETS