INFUNTIL
Atividades Educacionais
infuntil.educacional@gmail.com
am.pedagogia1@gmail.com
(28) 98815-3521

NATAL DA MATEMÁTICA



Instruções: Determine o valor que cada uma das imagens de Natal representa nos seguintes problemas matemáticos:

LIVEWORKSHEETS

INFUNTIL
Atividades Educacionais

infuntil.educacional@gmail.com
am.pedagogia1@gmail.com
(28) 98815-3521

NATAL DA MATEMÁTICA

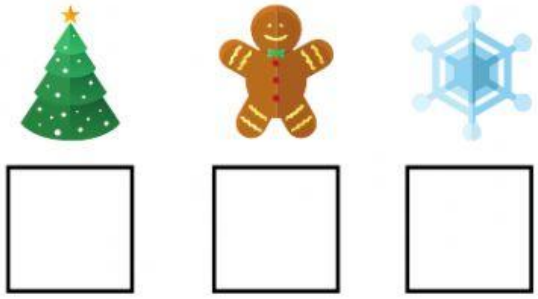

Instruções: Determine o valor que cada uma das imagens de Natal representa nos seguintes problemas matemáticos:

32

34

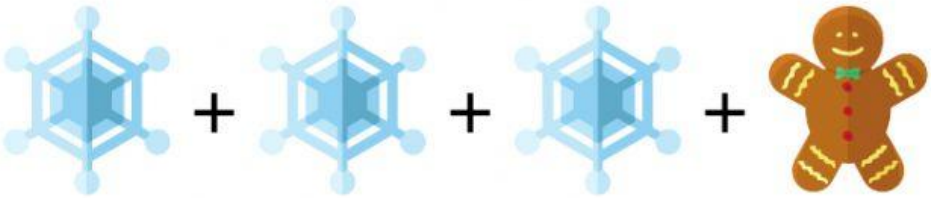

72

LIVEWORKSHEETS

INFUNTIL
Atividades Educacionais

infuntil.educacional@gmail.com
am.pedagogia1@gmail.com
(28) 98815-3521

NATAL DA MATEMÁTICA

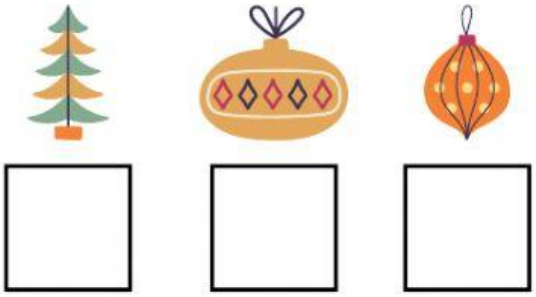

Instruções: Determine o valor que cada uma das imagens de Natal representa nos seguintes problemas matemáticos:

x = 36

− + = 6

+ + = 36

+ + = ☐

 − + = ☐

LIVEWORKSHEETS

INFUNTIL
Atividades Educacionais

infuntil.educacional@gmail.com
am.pedagogia1@gmail.com
(28) 98815-3521

NATAL DA MATEMÁTICA

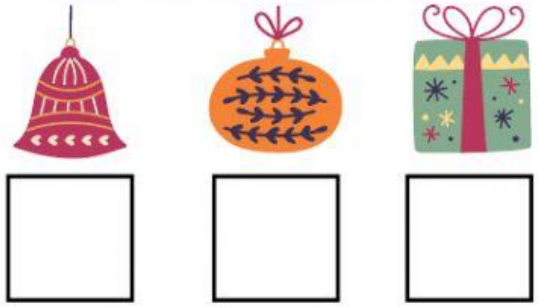

Instruções: Determine o valor que cada uma das imagens de Natal representa nos seguintes problemas matemáticos:

27

5

18

LIVEWORKSHEETS

INFUNTIL
Atividades Educacionais

infuntil.educacional@gmail.com
am.pedagogia1@gmail.com
(28) 98815-3521

NATAL DA MATEMÁTICA



Instruções: Determine o valor que cada uma das imagens de Natal representa nos seguintes problemas matemáticos:

+ = 10

+ = 12

+ = 4

+ = ☐

+ + = ☐

LIVEWORKSHEETS