Khối lập phương, khối hộp chữ nhật

1 Tích chọn các hình là khối lập phương:

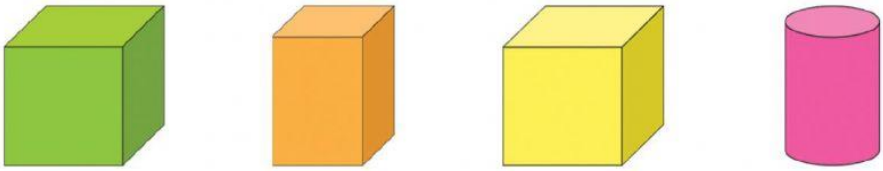

☐ A. ☐ B. ☐ C. ☐ D.

2 Tích chọn các hình là khối hộp chữ nhật:

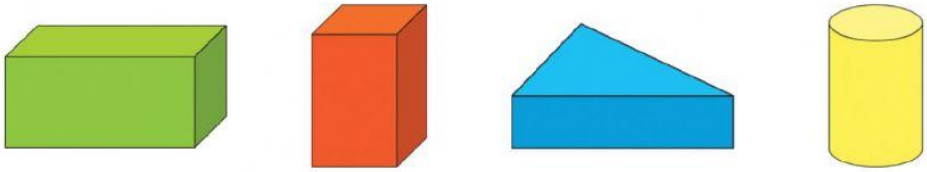

☐ A. ☐ B. ☐ C. ☐ D.

3 Bạn Mai xếp được hình dưới đây:

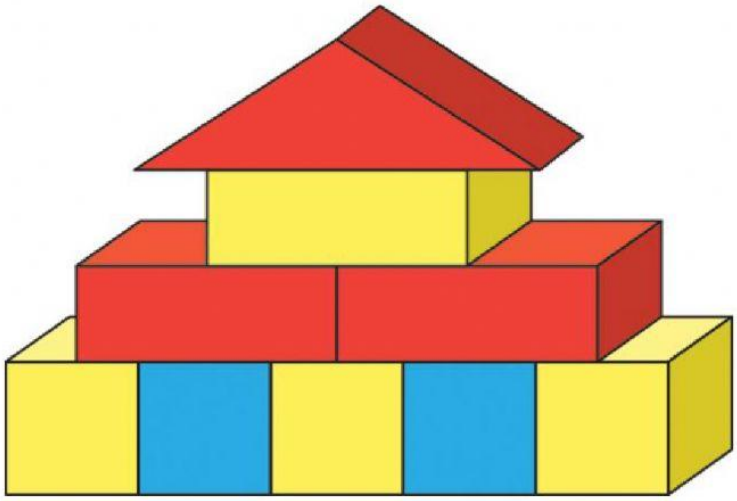

a) Trong hình đó, có ..... khối lập phương.

b) Trong hình đó, có ..... khối hộp chữ nhật màu đỏ.

4 Chọn hình khối thích hợp đặt dưới dấu ?

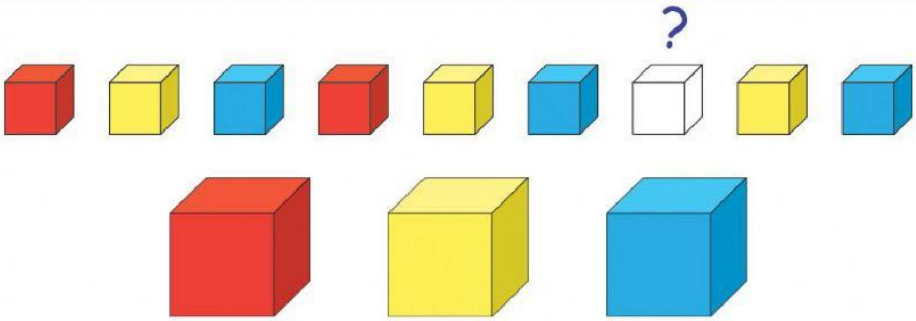

A. B. C.

LIVEWORKSHEETS