TUẦN 13

Họ và tên: .....

Bài 1: Nối

205 : 5

23 × 9

952 : 2

720 : 8

68 × 7

82 : 2

15 × 6

207

Bài 2: Quan sát và điền số thích hợp vào chỗ chấm

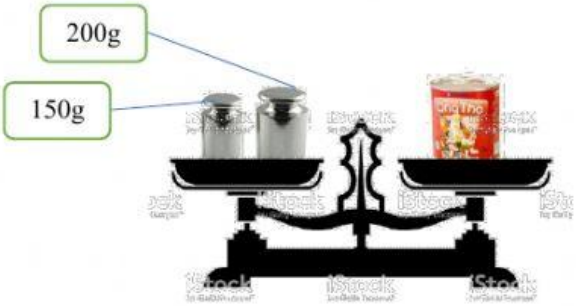

Hộp sữa cân nặng là: ……



Một quả táo cân nặng là: ……..……

(Biết mỗi quả táo cân nặng bằng nhau)

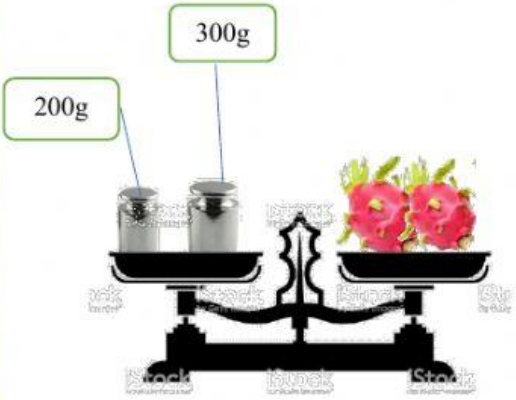

Hai quả thanh long cân nặng là: ……

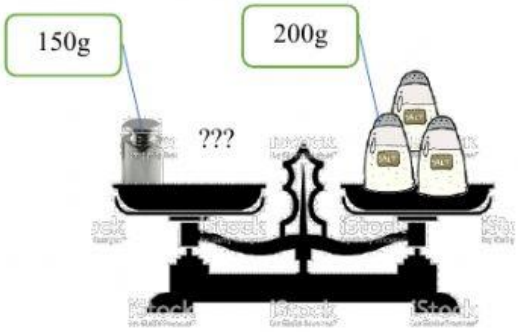

* Mỗi túi muối nặng 200g. Cần ……quả cân, mỗi quả nặng 150g để cân thăng bằng.

LIVEWORKSHEETS

Bài 3: Điền vào ô trống trong bảng sau:

Số lớn	18	36				
Số bé	2	6	5	9	7	4
Số lớn gấp mấy lần số bé?			5		8	
Số bé bằng một phần mấy số lớn?				$\frac{1}{2}$		$\frac{1}{8}$

Bài 4: Tính nhẩm

$9 \times 8 =$ …… $6 \times 9 =$ …….. $9 \times 0 =$ …….

$7 \times 6 =$ …… $5 \times 9 =$ …….. $9 \times 10 =$ ……

$64 \times 8 =$ …….. $42 : 7 =$ …….. $50 : 5 =$ …….

Bài 5: Tìm x

$x \times 9 = 189$ $x \times 5 = 250$ $x \times 7 = 155 + 468$

…….. …… ……...

…….. …… ……...

…….. …… ……...

Bài 6: Một kho chứa 472kg muối, lần đầu chuyển đi 200kg muối, lần sau chuyển đi 170kg muối. Hỏi trong kho còn lại bao nhiêu ki-lô-gam muối?

Bài giải

……

……

……

……

……

LIVEWORKSHEETS

Bài 4: Mỗi gói kẹo cân nặng 90g, mỗi hộp bánh cân nặng 385g. Hỏi 1 hộp bánh và 2 gói kẹo cân nặng bao nhiêu gam?

Bài giải

.....

.....

.....

.....

.....

Bài 5: Một giá trứng có 100 quả trứng, đã bán đi 95 quả trứng. Hỏi số trứng còn lại bằng một phần mấy số trứng ban đầu?

Bài giải

.....

.....

.....

.....

.....

LIVEWORKSHEETS