LKPD MATEMATIKA

KELAS 2 TEMA 4 SUBTEMA 2

A. TUJUAN PEMBELAJARAN

1. **Dengan mengamati tayangan video tentang Bangun Datar, siswa dapat menunjukkan benda benda konkret**
2. **Dengan mencermati video, siswa dapat menunjukkan bangun datar berdasarkan banyak sisi, sudut, dan titik sudut**

B. PETUNJUK PENGGUNAAN LKPD

1. **Berdoalah sebelum melakukan kegiatan pembelajaran**
2. **Isilah identitas LKPS (nama, kelas, nomor)**
3. **Cermati petunjuk kegiatan**
4. **Teliti Kembali sebelum mengumpulkan**

C. MATERI VIDEO

LIVEWORKSHEETS

D. **KEGIATAN BELAJAR**

a) **Cermati video tentang bangun datar**

b) **Tentukan bentuk benda sesuai dengan bangun datar**



LIVEWORKSHEETS

c) **Tuliskan jumlah sisi pada bangun datar berikut**

Segitiga

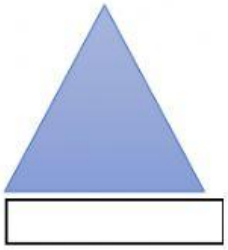

Persegi / Segi empat



Lingkaran

Segi lima

d) **Kerjakan soal di bawah ini !**

1. **Apakah nama bangun datar di bawah ini ?**

a. **Lingkaran**
b. **Persegi**
c. **Segi tiga**

2. **Berapa jumlah titik sudut pada bangun di bawah ini ?**

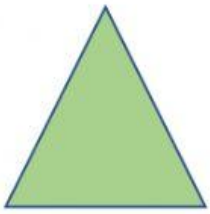

a. 5
b. 7
c. 3

3. **Berapa jumlah sudut pada bangun di bawah ini ?**

a. 5
b. 6
c. 4

LIVEWORKSHEETS

e) **Tariklah gambar yang sesuai dengan pola berikut !**

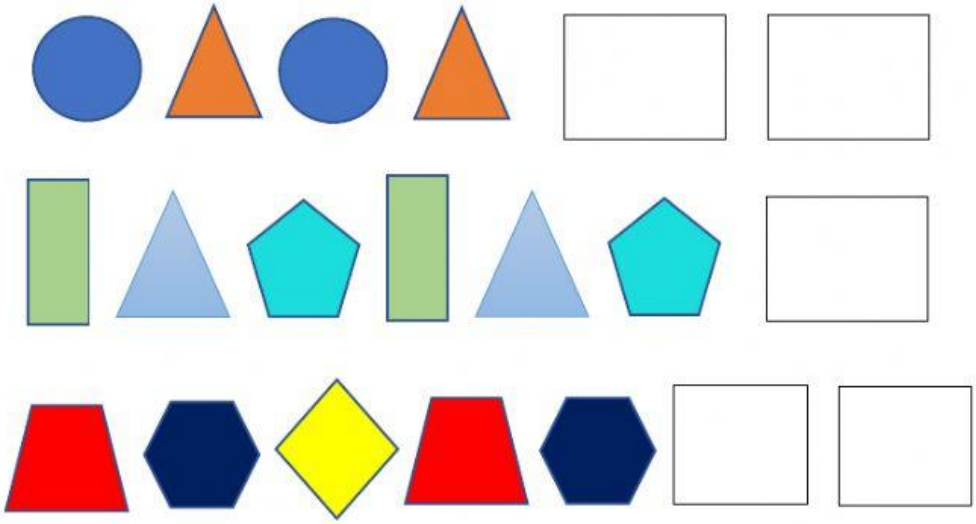



LIVEWORKSHEETS