ENIGMES MATEMÀTICS

Observa els següents quadrats, troba la relació que tenen els números de cada filera i, després completa la resta de quadrats.

4	12	3
7	56	
10		9

6	36	
	64	
	49	

3	18	
	8	4
	54	6

5	35	
	25	
3		7

Completa la piràmide de forma que el número que escriguis sigui la suma dels dos números sobre els quals es recolza.

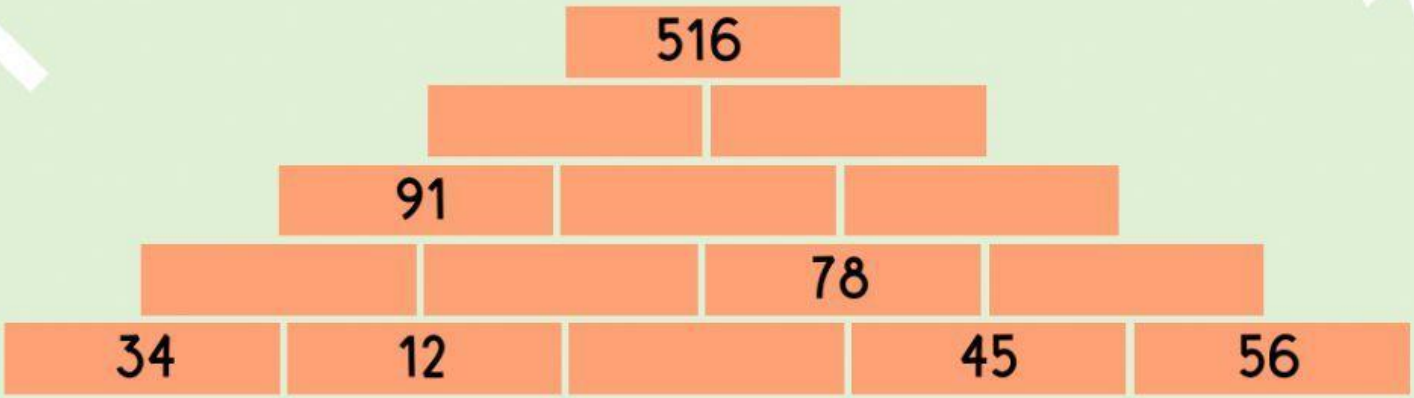

LIVEWORKSHEETS

Raona i completa:



= 5

Quants quadrats observes en la següent figura?



=

LIVEWORKSHEETS