Tên: ..... Lớp:.....

Toán

Thực hành nhận biết và vẽ góc vuông bằng Ê ke

LIVEWORKSHEETS
LIVEWORKSHEETS

Bài 1:

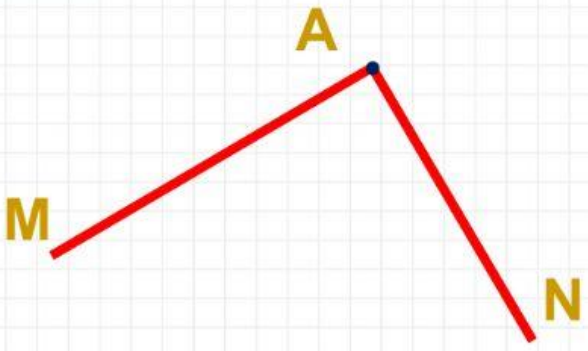

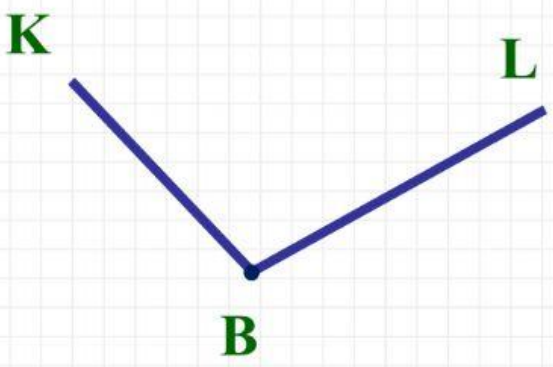

Đây là góc .....

Đỉnh .... ; Cạnh AM, ...

Đây là góc .....

Đỉnh .... ; Cạnh ....., ...

LIVEWORKSHEETS
LIVEWORKSHEETS

<u>Bài 2</u>: Dùng ê ke kiểm tra trong mỗi hình sau có mấy góc vuông:

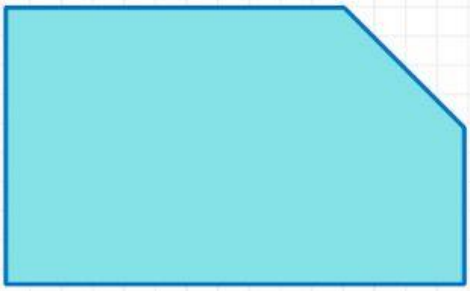

Có ..... góc vuông

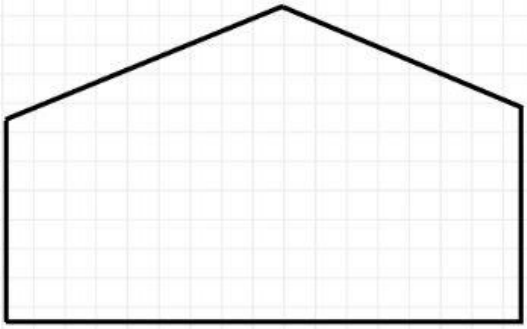

Có ..... góc vuông

LIVEWORKSHEETS
LIVEWORKSHEETS

Hình nào là góc vuông?



Hình 1

Đây là góc .....



Hình 2

Đây là góc .....

Hình 3

Đây là góc .....

Hình 4

Đây là góc .....

LIVEWORKSHEETS
LIVEWORKSHEETS

Hình bên dưới là hình có.....

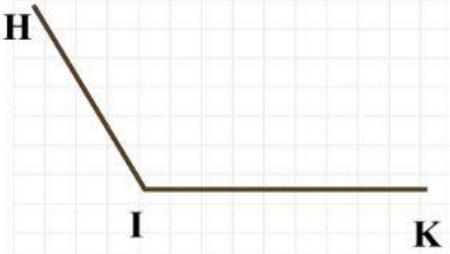

A. Góc vuông: Đỉnh I; Cạnh IH, IK

B. Góc không vuông: Đỉnh H, Cạnh IH, IK

C. Góc không vuông: Đỉnh I, Cạnh IH, IK

LIVEWORKSHEETS
LIVEWORKSHEETS