PHIẾU HỌC TẬP VIRUS

I. Kéo thả từ phù hợp



a) Virus khảm thuốc lá (*Tobacco mosaic*)



b) Virus *Adeno*

c) Virus *Corona*

Hình 16.1. Sơ đồ hình dạng của một số loại virus

Hình que

Hình cầu

Hình đa diện

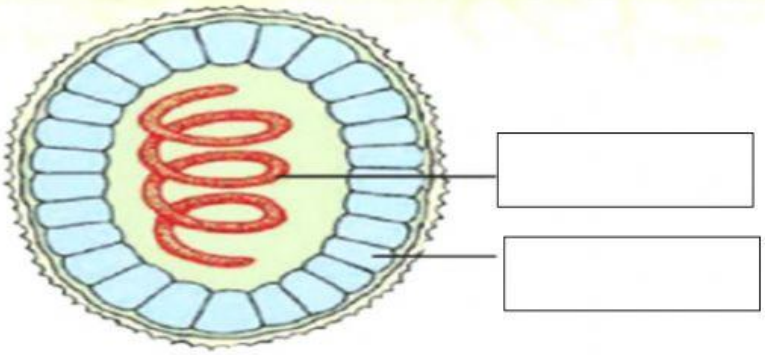

Hình 16.2. Sơ đồ cấu tạo đơn giản của một virus

Chất di truyền

Lớp vỏ protein

II. Chọn đáp án đúng

Câu 1: Thành phần nào dưới đây có trong cấu tạo virus?

LIVEWORKSHEETS

A. Vỏ protein. B. Nhân. C. Màng sinh chất. D. Tế bào chất.

Câu 2: Virus không được coi là một sinh vật hoàn chỉnh vì

A. virus thường gây bệnh ở người và động vật.

B. virus chưa có cấu tạo tế bào.

C. virus là loại tế bào nhỏ nhất.

D. virus không có khả năng nhân đôi.

Câu 3: Bệnh nào dưới đây không phải do virus gây ra?

A. Bệnh đốm trắng hoặc nâu trên lá cây.

B. Bệnh thối rữa ở quả ớt, dâu tây và bí ngô.

C. Bệnh quai bị ở người.

D. Bệnh lao ở người.

Câu 4: Bộ Y tế khuyến cáo "5K" chung sống an toán với dịch bệnh do virus *Corona* là gì?

A. Khẩu trang, khử khuẩn, khoảng cách, không tụ tập, khai báo y tế.

B. Khẩu trang, khử virus, khoảng cách, không tu tập, khai báo y tế.

C. Khẩu trang, khử khuẩn, khí hậu, không tụ tập, khai báo y tế.

D. Khí sạch, khử khuẩn, khoảng cách, không tụ tập, khai báo y tế.

Câu 5: Virus *Corona* gây bệnh viêm đường hô hấp cấp ở người có hình dạng nào sau đây?

A. Hình đa diện.

B. Hình cầu.

C. Hình que.

D. Hình dấu phẩy.

Câu 6: Tại sao bác sĩ đề nghị mọi người nên tiêm vaccine ngừa cúm mỗi năm?

A. Virus nhân lên nhanh chóng theo thời gian

B. Virus cúm có nhiều chủng thay đổi theo các năm

C. Vaccine được cơ thể hấp thụ sau một năm

D. Vaccine càng ngày càng mạnh hơn theo thời gian

Câu 7: Virus sống kí sinh nội bào bắt buộc vì chúng:

A. Có kích thước hiển vi

B. Có cấu tạo tế bào nhân sơ

C. Chưa có cấu tạo tế bào

D. Có hình dạng không cố định

LIVEWORKSHEETS