Tên:
Lớp:

PHIẾU HỌC TẬP

Bài 22
ÔN TẬP CHƯƠNG 1

I. MỐI QUAN HỆ DINH DƯỠNG Ở THỰC VẬT

Hãy nối a,b,c,d,e tronh hình với tên quá trình xảy ra trong cây và cấu trúc đặc hiệu tương ứng.

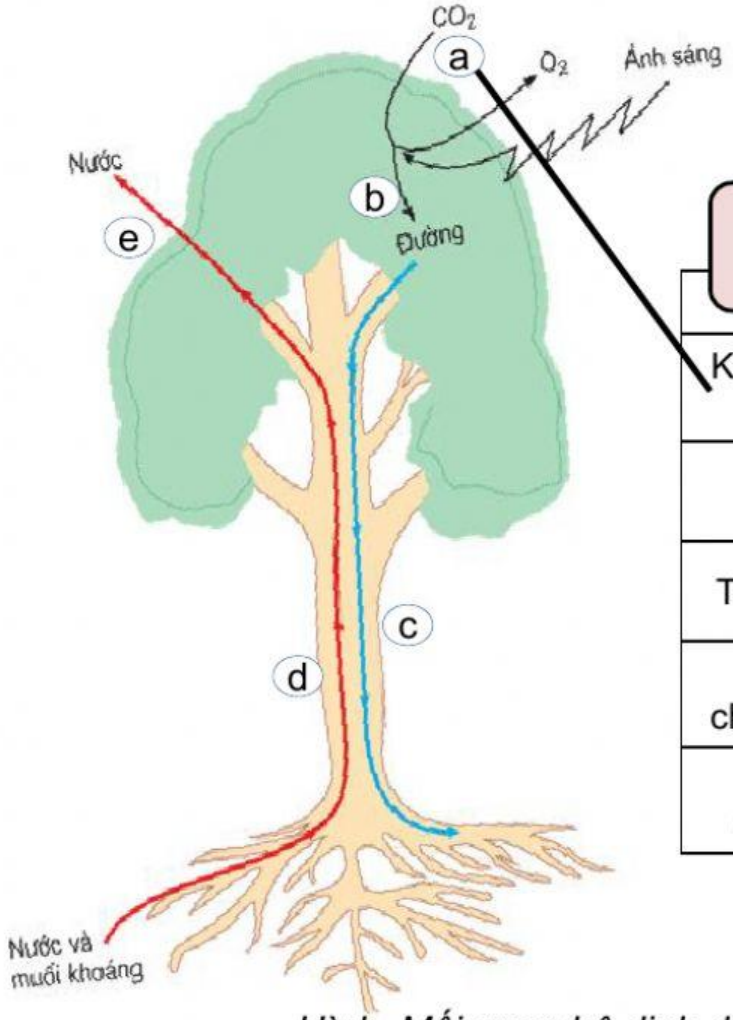

Quá trình trong cây	Cấu trúc đặc hiệu
Khuếch tán CO_2 vào lá	Khí khổng và cutin
Quang hợp	Khí khổng
Thoát hơi nước	Mạch gỗ
Dòng vận chuyển đi xuống	Mạch rây
Dòng vận chuyển đi lên	Lục lạp

Hình. Mối quan hệ dinh dưỡng ở thực vật

II. MỐI QUAN HỆ GIỮA QUANG HỢP VÀ HÔ HẤP Ở T.VẬT

Điền vào các chỗ trống trong hình sau.

LIVEWORKSHEETS

Hình. Mối quan hệ giữa quang hợp và hô hấp ở thực vật

III. TIÊU HÓA Ở ĐỘNG VẬT

Hoàn thành bảng phân biệt sau bằng cách xác định đúng đối tượng đang phân biệt và điền Có/Không vào mỗi tiêu chí phân biệt tương ứng.

Quá trình tiêu hóa	Tiêu hóa ở động vật _____	Tiêu hóa ở động vật _____	Tiêu hóa ở động vật _____
Đại diện	Trùng đế giày Trùng biến hình	Thủy tức Bọt biển	Giun đất Bồ câu
Tiêu hóa cơ học			
Tiêu hóa hóa học			
Tiêu hóa nội bào			
Tiêu hóa ngoại bào			

IV. HÔ HẤP Ở ĐỘNG VẬT

Điền thông tin để hoàn thành bảng so sánh sự trao đổi khí ở thực vật và động vật.

	Động vật	Thực vật
Cơ quan trao đổi khí		Toàn bộ cơ quan có khả năng thấm khí
Khí hấp thu		
Khí giải phóng		

LIVEWORKSHEETS

V. HỆ TUẦN HOÀN Ở ĐỘNG VẬT

Điền các nội dung còn thiếu để hoàn thành bảng sau.

	Động vật	Thực vật
Hệ thống vận chuyển	- _____ - _____	- Dòng mạch gỗ:_____ - Dòng mạch rây: _____
Động lực vận chuyển	_____	- Dòng mạch gỗ: +_____ +_____ +_____ - Dòng mạch rây: _____

Điền vào các ô màu xanh tên hệ cơ quan tương ứng làm nhiệm vụ thực hiện các chức năng có trong sơ đồ sau.

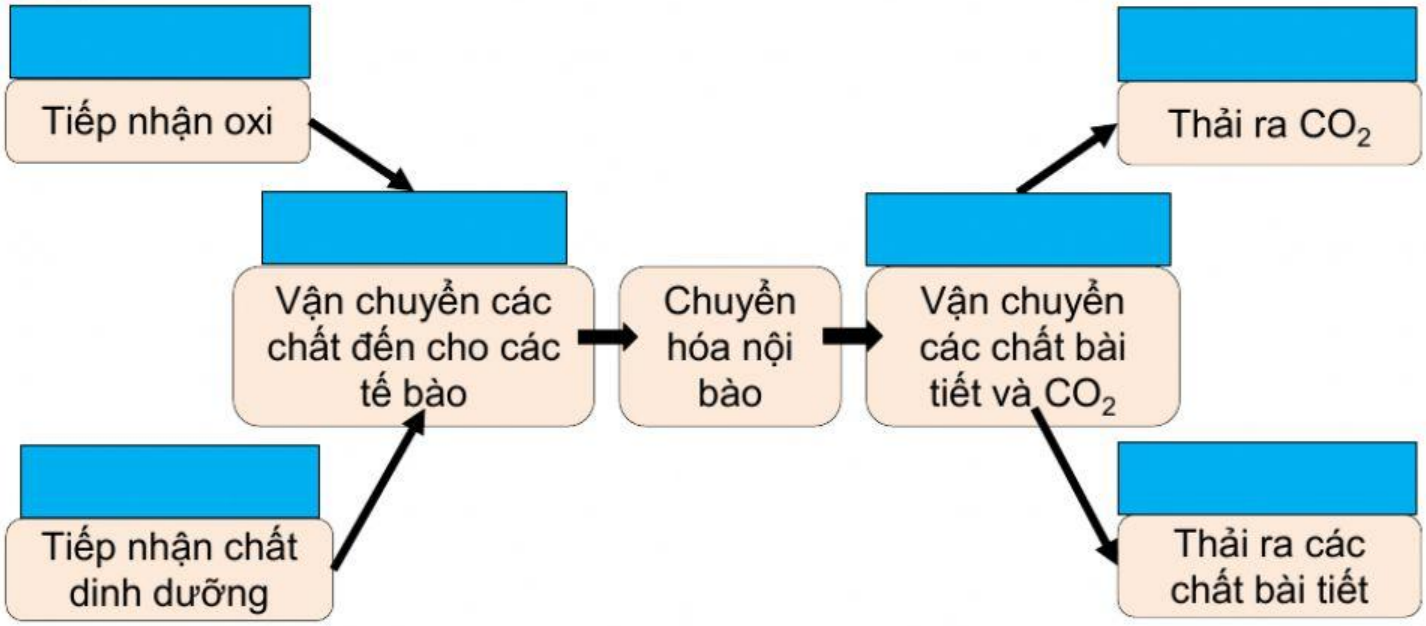

VI. CƠ CHẾ DUY TRÌ CÂN BẰNG NỘI MÔI

Hoàn thiện sơ đồ cơ chế duy trì cân bằng nội môi

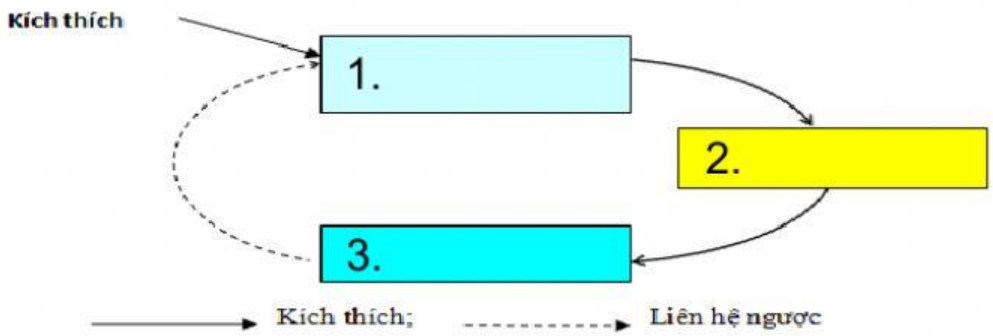

HS để lại tài liệu tham khảo mà HS đã sưu tầm được tại đây

LIVEWORKSHEETS