Latihan Penilaian Akhir Semester Ganjil Tema 4

Muatan PPKn

Silanglah (X) padajawaban yang benar!

1. Menghormati teman yang berbeda agama adalah pengamalan sila . . . Pancasila.

a.

ketiga

b.

keempat

c.

pertama

2.

Sebelum keluar rumah, sebaiknya kamu . . . kepada orang tuamu.

a. diamsaja

b.mintaizin

c. bermain

3.

(1) (2) (3) (4)

Contoh kegiatan menjaga kebersihan di rumah adalah . . . .

a. gambar (1) dan (4)
b. gambar (2) dan (3)
c. gambar (2) dan (4)

4. Bagan yang berisi asal-usul keluarga disebut . . . .

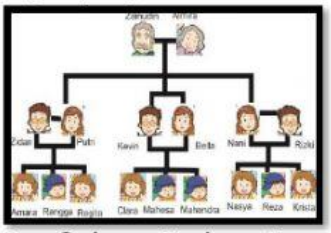

a. silsilah
b. gambar
c. kartu

Muatan Bahasa Indonesia

Silanglah (X) padajawaban yang benar!

5. Permintaan tolong sebaiknya diucapkan dengan. . . .

a. tidak sopan
b. sopan
c. marah

LIVEWORKSHEETS

6. Bacalah percakapan di bawahini!

Ibu : Maria, tolong bantu Ibu membawakan tas ini?

Maria : Baik, Bu.

Ibu : _____, Maria.

Maria : Sama-sama, Bu.

Kata yang tepat untuk melengkapi percakapan di atas adalah . . . .

a. Sama-sama

b. Baik

c. TerimaKasih

7.

1. Dina, tolong bantu Ibu merapikan meja makan, ya.
2. Terima kasih, Ayah atas hadiah mobil-mobilannya.
3. Linda, tolong bantu Ibu mencuci piring, ya.
4. Jonas, terima kasih telah membawakan kacamata ayah.

Pernyataan di atas, yang merupakan contoh ucapan permintaan tolong adalah nomor. . . .

a. 2 dan 3

b. 1 dan 4

c. 1 dan 3

8. Gambar di samping adalah keluarga . . . .

a. banyak

b. besar

c. inti

9. Paman adalah saudara . . . dari orang tua kita.

a. perempuan

b. laki-laki

c. kakek

10. Perhatikan gambar silsilah keluarga Udin di bawah ini!

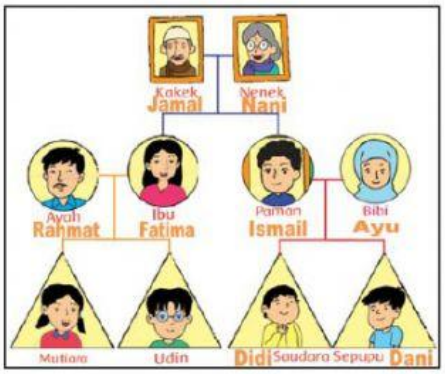

Mutiara bersaudara kandung dengan . . . .

a. Didi

b. Udin

c. Dani

LIVEWORKSHEETS

11.

Jalan-jalan bersama orang tua adalah contoh kegiatan bersama. . . .

a. keluarga
b. teman
c. tetangga

Muatan Matematika

<u>Silanglah (X) padajawaban yang benar!</u>

12. 3 7 11 15 19

Bilangan di atas membentuk pola bilangan . . . .

a. ditambah 2

b. ditambah 3

c. ditambah 4

13. Contoh benda yang berbentuk segitigaadalah . . . .

a.

b. 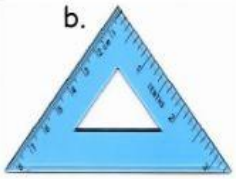

c.

14.

Berat satu labu sama dengan berat . . . .

a. empat buku
b. enam buku
c. lima buku

15.

Panjang cermin adalah . . . .

a. 6 hasta
b. 7 hasta
c. 8 hasta

16. Perhatikangambar di bawahini!

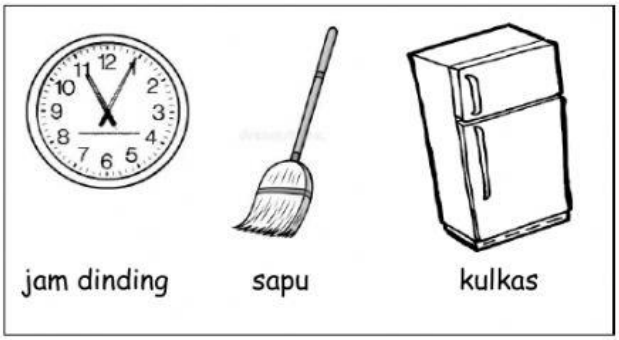

Benda yang paling berat adalah . . . .

a. jam dinding

b. sapu

c. kulkas

LIVEWORKSHEETS

Muatan SBdP

Silanglah (X) padajawaban yang benar!

17. Bahan yang digunakan untuk menggambar ekspresi wajah adalah . . . .

a. 

Buku gambar

b.

gunting

c.

lem

18.

Suara rendah akan terdengar . . . .
a. melengking
b. pelan
c. keras

19. Gambar gerakan yang menunjukkan gerakan kupu-kupu terbang adalah . . . .

a.

b.

c.

20. Meronce adalah merangkai benda dengan . . . .

a.

tali

b.

Tusuk gigi

c.

kain

LIVEWORKSHEETS