ДОСЛІДЖУЄМО ЗАДАЧІ НА ЗНАХОДЖЕННЯ СУМИ ТРЬОХ ДОДАНКІВ

Перевір, чи правильно Оля розв'язала задачу.

Тато купив 2 кг яблук, 3 кг груш і 4 кг картоплі. Скільки всього фруктів купив тато?

Задача

Ябл. — 2 кг
Гр. — 3 кг
?

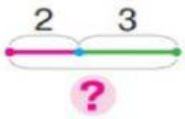

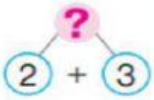

Розв'язання

2 + 3 = 5 (кг)

Відповідь: всього 5 кг фруктів.

Яке число не було використане в розв'язанні задачі? Зміни запитання так, щоб це число також було потрібне для відповіді на запитання задачі. Як ця зміна вплине на розв'язування? Що достатньо знати, щоб відповісти на запитання одержаної тобою задачі?

Запиши правильний розв'язок задачі.

З'ясуй, якій задачі відповідають обидві схеми.

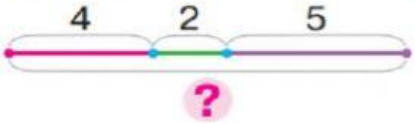

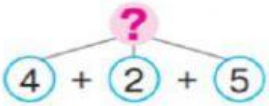

1) У стайні 4 білих коней, 2 вороних і 5 — сірих. Скільки всього коней у стайні?

2) У стайні 4 білих коней, 2 вороних і 5 — сірих. Скільки білих і вороних коней у стайні?

LIVEWORKSHEETS

Задачі на знаходження суми трьох доданків

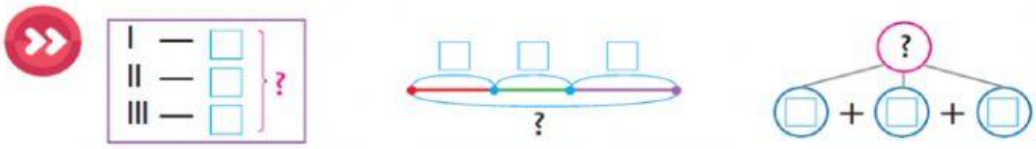

Розв'яжи задачі.

1.Білочка назбирала 10 грибочків, 23 жолуді та 64 шишки. Скільки всього плодів зібрала білочка?

2. Задача Сашко купив шоколадку за 9 гривень, булочку за 5 гривень та пакет соку за 7 гривень. Скільки всього грошей витратив Сашко на покупку?

3. Розв'яжи задачу за коротким записом.

2 - А – 4 відм.
2 - Б – 6 відм.
2 - В - 5 відм.
?

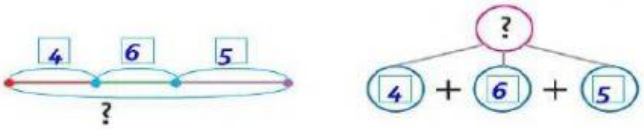

LIVEWORKSHEETS