NOME:

DATA: PROFª: 5º ANO:

## ATIVIDADE DE MATEMÁTICA – FRAÇÃO – PARTE E INTEIRO/ FRAÇÃO EEQUIVALENTE

LIVEWORKSHEETS

01 – A figura representa um azulejo dividido em 9 partes iguais. Cinco dessas partes estão coloridas.



a) Escreva a fração que representa à parte colorida do azulejo.

b) Escreva como se deve ler essa fração.

c) Indique o numerador dessa fração.

d) Indique o denominador dessa fração.

e) Escreva como se lê a fração que representa a parte não colorida do azulejo.

LIVEWORKSHEETS

LIVEWORKSHEETS

02 – Escreva a fração que representa a parte colorida das figuras.



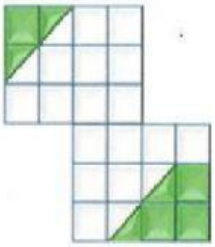

LIVEWORKSHEETS

3) Indique as frações que representam:

4) Nathan Drake está jantando. Comeu $\frac{3}{8}$ de um pernil de javali, $\frac{7}{10}$ de uma torta de maçã e tomou $\frac{4}{5}$ de um suco. Escreva essas frações por extenso.

$\frac{3}{8} =$

$\frac{7}{10} =$

$\frac{4}{5} =$

LIVEWORKSHEETS

05 – A soma dos termos de uma fração é 23. O numerador é 7. Como se lê essa fração?

6) Quatro amigos dividiram entre si 3 pizzas em partes iguais.



Quantas fatias de pizza caberão a cada um?

*Cada um comerá*

*fatias de pizza*

LIVEWORKSHEETS

**MARQUE A ALTERNATIVA CORRETA EM CADA QUESTÃO ABAIXO:**

Qual é a representação fracionária da figura abaixo?

A 8/8 B 7/8
C 8/7 D 7/7

A fração 2/4 é equivalente a:

A 4/10 B 3/9
C 5/6 D 1/2

Em qual das figuras a parte pintada representa três oitavos da figura toda?

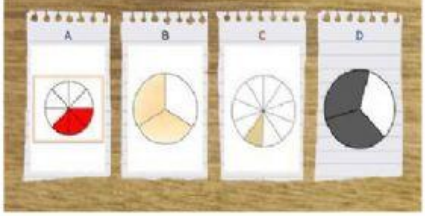

Que fração representa a parte branca?



A Três oitavos B Quatro oitavos
C Seis nonos D Um quarto

Como lemos essa fração?

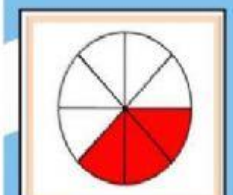

A Três oito
B Oito terços
C Três oitavos

LIVEWORKSHEETS

## QUAIS OS TERMOS DE UMA FRAÇÃO?

$\frac{2}{12}$

A Parcela e Soma

B Dividendo e Divisor

C Numerador e Denominador

## Qual é a fração correspondente a essa imagem ?

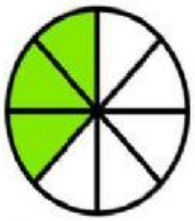

A Um terço.

B Dois sextos.

C três oitavos.

## QUAL FRAÇÃO CORRESPONDE À PARTE QUE FOI COMIDA DE TODA A PIZZA?

A 1/6

B 1/8

C 1/7

$\frac{4}{8}$

A fração 4/8 é equivalente a 1/2

Verdadeiro

Falso

## O que é fração?

$\frac{5}{8}$

A São figuras pintadas.

B São quantidades desiguais.

C É a divisão de uma quantidade em partes iguais.

D

## A fração 1/2 é equivalente a fração:

A 3/7

B 2/9

C 2/4

D 5/7

E 4/8

F 1/9

LIVEWORKSHEETS