SEKOLAH KEBANGSAAN
SERI KEPAYANG
FAIR PARK, IPOH

Cikgu Linda doakan moga murid-murid menjadi anak yang *Cemerlang* aamiin.

CIKGU HASLINDA BAKERI

Nama Penuh Murid:

SAINS TAHUN 6

Tema : Bumi & Sains Angkasa

Tajuk : GERHANA

KEJADIAN GERHANA

Cahaya Matahari bergerak dalam garis lurus dan tidak dapat melalui objek legap.

Rajah ini adalah fenomena gerhana ...

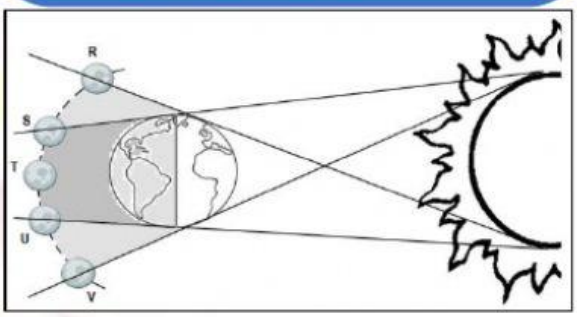

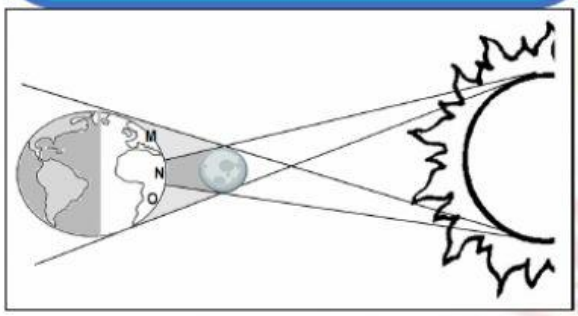

Berlaku pada waktu ?

Kedudukan ?

berada di antara dan **Matahari**.

berada di antara dan **Matahari**.

Rujuk Buku
Teks M/S : 163 - 173

LIVEWORKSHEETS

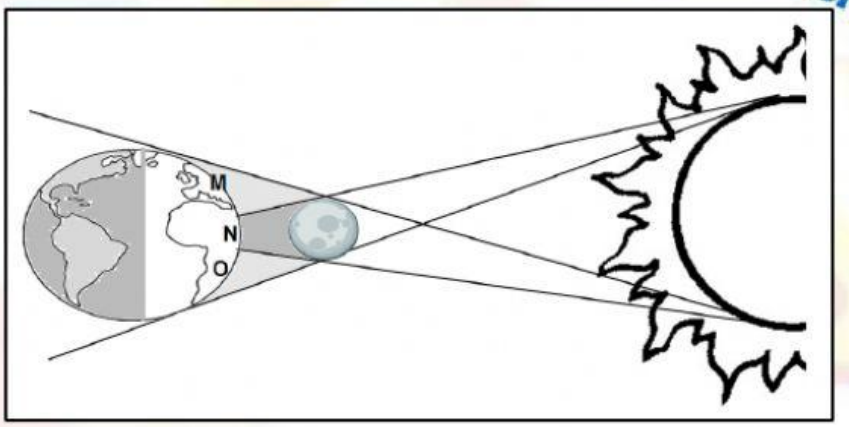

Fenomena gerhana yang ditunjukkan dalam rajah di atas ialah gerhana

……..……. Negara yang berada di kedudukan **N**, mengalami

gerhana ….……..…… ……. , manakala gerhana

…… ……...… akan berlaku pada kedudukan **M** dan **O**.

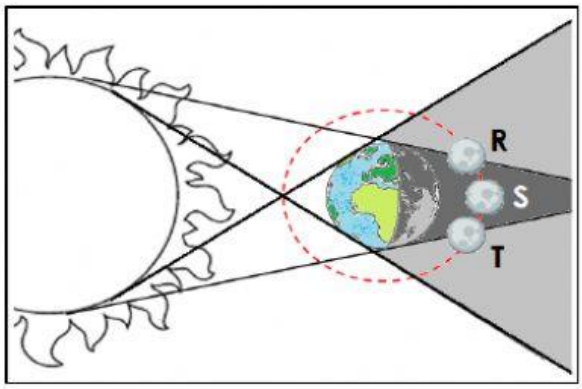

Fenomena gerhana yang ditunjukkan dalam rajah di atas ialah gerhana

……. Semasa bulan pada kedudukan **S**, Bumi mengalami gerhana

….……..…… ……. , manakala semasa bulan pada

kedudukan **R** dan **T** gerhana …… ……...… berlaku.

LIVEWORKSHEETS

Tema : Bumi & Sains Angkasa

Tajuk : BURUJ

Rujuk Buku
Teks M/S : 182

..... Ialah gugusan bintang yang membentuk corak seperti seekor ..... Ia muncul di langit pada waktu malam di sebelah hemisfera .....

..... Ialah satu buruj yang paling menonjol di langit pada waktu malam. Ia membentuk corak ..... yang memakai tali pinggang dan tergantung sebilah pedang. Ia muncul di langit pada waktu malam di antara hemisfera ..... dan .....

LIVEWORKSHEETS

Rujuk Buku
Teks M/S : 182



..... Ialah buruj yang palingkecil dan senag dikenal pasti di langit pada waktu malam di sebelah himesfera ..... Ia terdiri daripada gugusan 4 bintang yang tersusun berbentuk corak seperti .....



..... Ialah gugusan 7 bintang. Buruj ini membentuk corak sepeti ..... atau ..... Dengan tangkainya. Ia muncul di langit pada waktu malam di sebelah himesfera .....

LIVEWORKSHEETS