Trường Tiểu học Đống Đa

Tên: ..... Lớp: .....

Môn Toán

LÀM QUEN VỚI PHÉP TRỪ - DẤU TRỪ

Bài 1: Đánh dấu ✓ vào câu đúng:

3 - 0 =	3 - 2 =	3 - 1 =	4 - 2 =
3 2 1	2 1 0	1 2 3	4 2 3

Bài 2: Số?

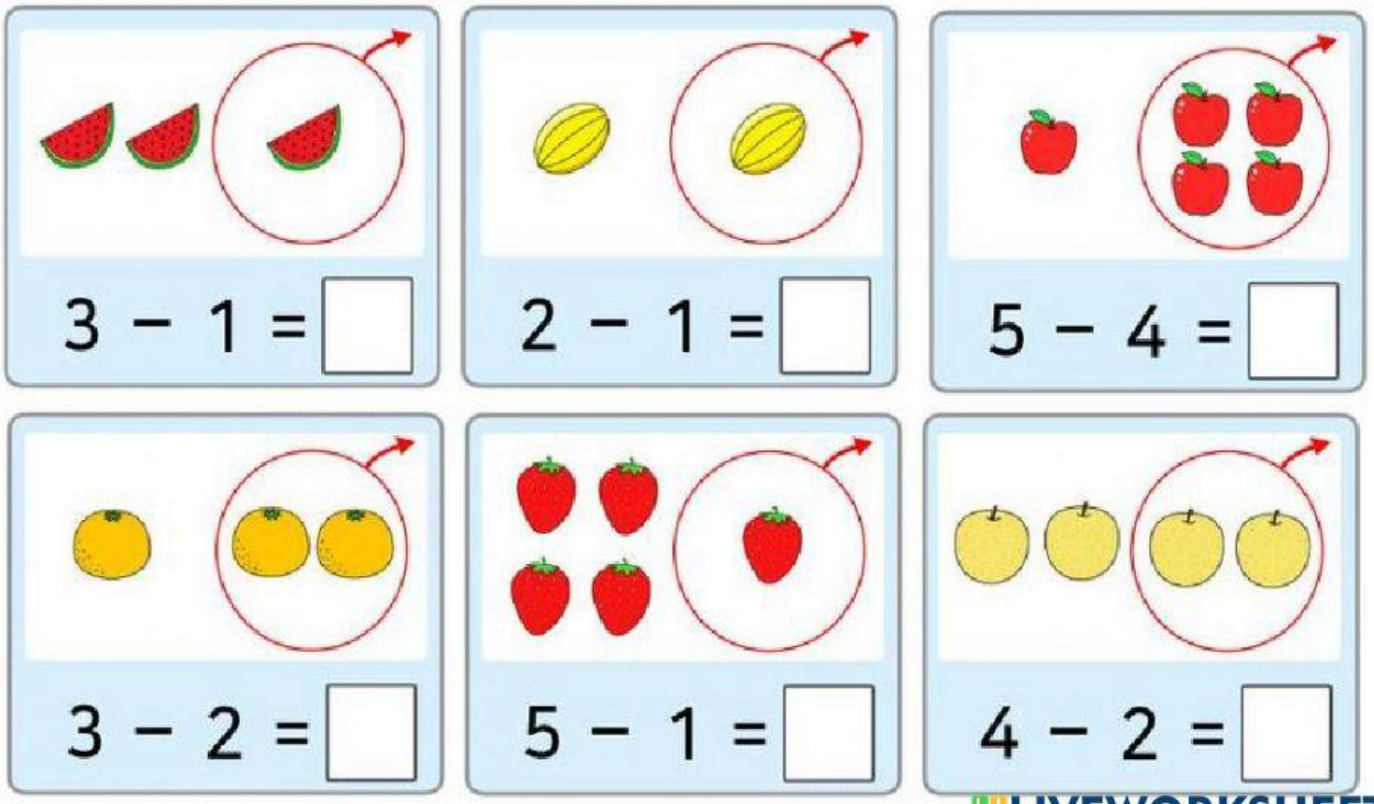

LIVEWORKSHEETS

Bài 3: Nối phép tính thích hợp với tranh vẽ:





8 - 3

6 - 1

Bài 4: Nêu phép tính thích hợp với tranh vẽ:



4 ◯ 1 = ☐

5 ◯ 1 = ☐

LIVEWORKSHEETS

LIVEWORKSHEETS