(LKPD)

LEMBAR MATERI PESERTA DIDIK

Nama Sekolah : SDN Neglasari 1

Mata Pelajaran : MATEMATIKA

Tema/Subtema : 4 / 2

Hari/Tanggal : Kamis, 25 Naovember 2021

Nama Siswa : _____

- MATEMATIKA Pembelajaran 1 dan 3 (Lihat buku LKS kalian halaman 23 dan 28)

Ayo Berlatih

Tentukan bangun datar sesuai dengan banyak sisi,sudut, dan titik sudutnya!

Banyak Sisi : 3
Banyak Sudut : 3
Banyak Titik Sudut : 3



Banyak Sisi : 4
Banyak Sudut : 4
Banyak Titik Sudut : 4

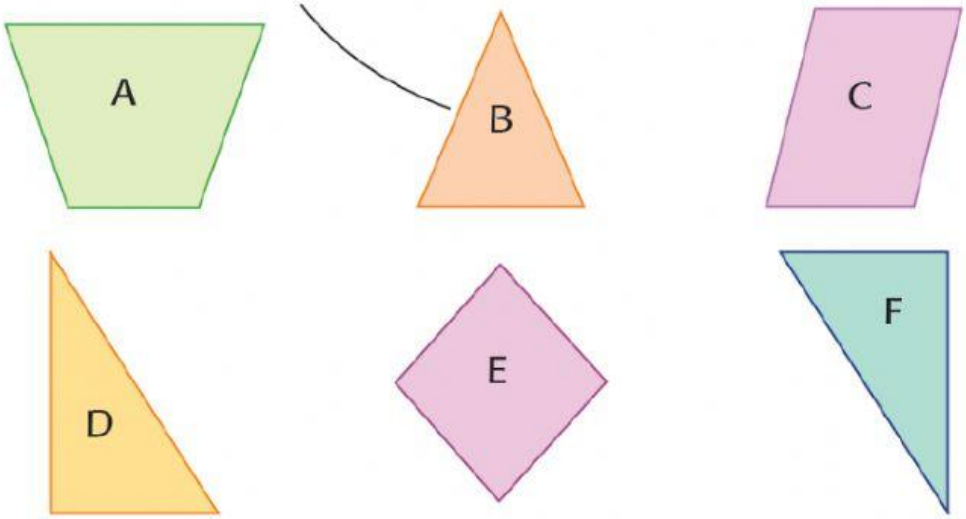

LIVEWORKSHEETS

Ayo Berlatih

Untuk meningkatkan pemahamanmu, coba kelompokkan bangun-bangun datar berikut! Kelompokkan sesuai dengan banyak sisi, sudut, dan titik sudutnya!

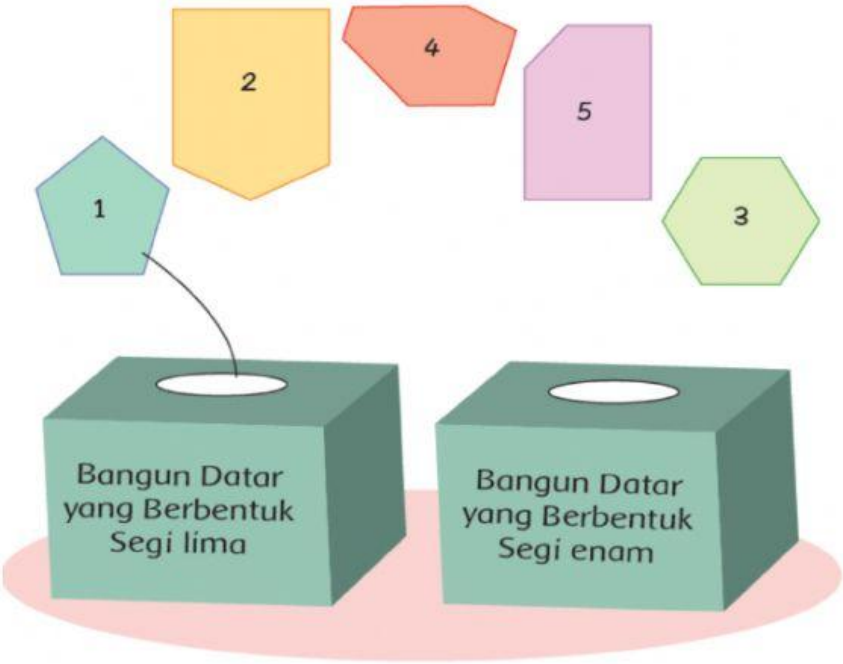

- MATEMATIKA Pembelajaran 4 dan 6 (Lihat buku LKS kalian halaman 23 dan 28)
  Dua atau lebih bangun datar dapat disusun membentuk pola tertentu.
  Perhatikan pola bangun datar di bawah ini.

Amati pola bangun datar berikut!

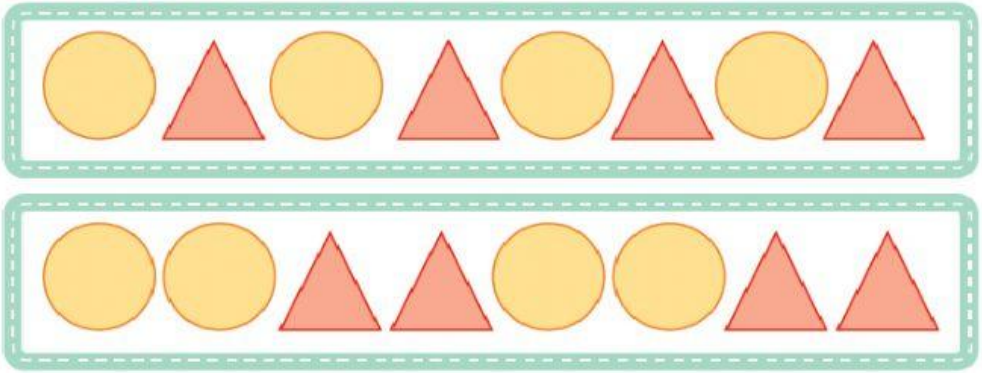

LIVEWORKSHEETS

Gali informasi lebih banyak dari video di bawah ini !

Ayo Berlatih

Tentukan bentuk bangun datar selanjutnya sesuai dengan pola-pola berikut!

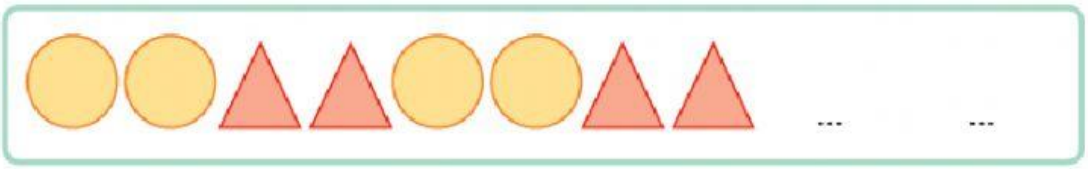

Untuk mengisi jawaban di atas, letakan pola bangun datar di bawah ini pada pola barisan yang tepat!

LIVEWORKSHEETS

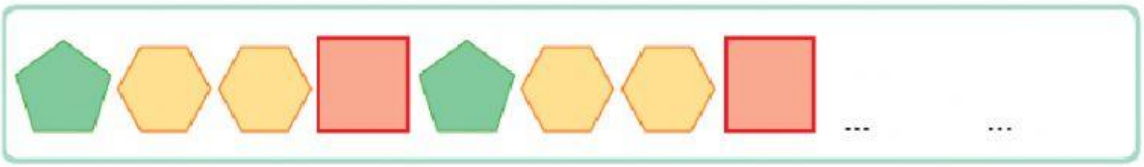

Untuk mengisi jawaban di atas, letakan pola bangun datar di bawah ini pada pola barisan yang tepat!



LIVEWORKSHEETS