GEOMETRIA

LH 4.Maila

Zeintzuk dira zuzen paraleloak? Aukeratu irudi zuzenak.

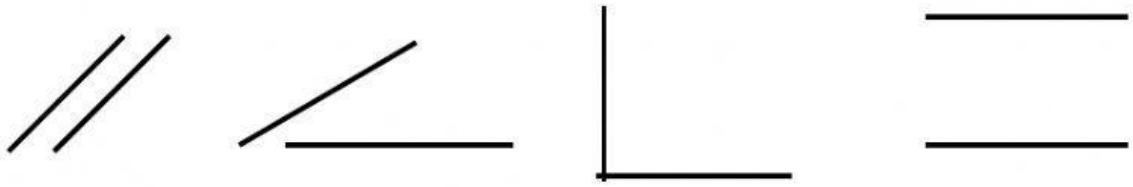

Zeintzuk dira zuzen ebakitzaileak? Aukeratu irudi zuzenak.

Zeintzuk dira zuzen perpendikularrak? Aukeratu irudi zuzenak

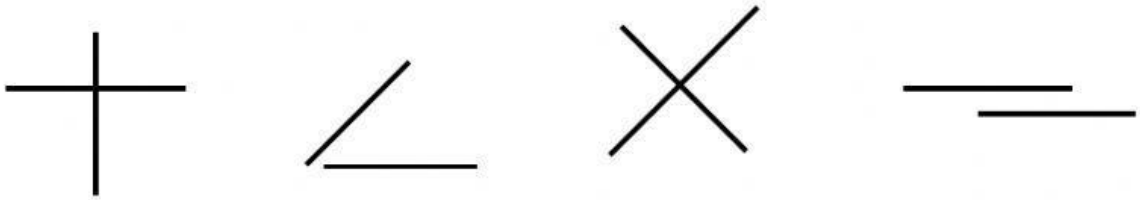

LIVEWORKSHEETS

2. Aukeratu hurrengo irudiei dagokion hitza.

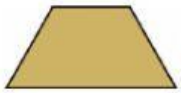

3. Osotu hutsuneak hurrengo hitzak erabiliz.

Angelu osoa	Angelu zuzena	Angelu kamutsa	Angelu zorrotza	Angelu laua

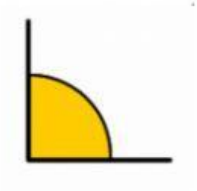

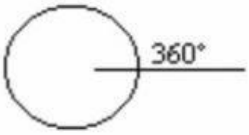



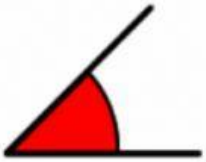

LIVEWORKSHEETS

4. Idatzi hurrengo definizioei dagokion hitza.

- Alde biak ebakitzen daben puntua:

- Angelu bat osatzen daben bi lerroetako bakoitza:

- Jatorri edo erpin bardina daukaten bi zuzenerdik, aldeak deiturikoak, osatzen daben irudia da.

LIVEWORKSHEETS