1. Idatzi geziek adierazten dituzten zenbakiak.

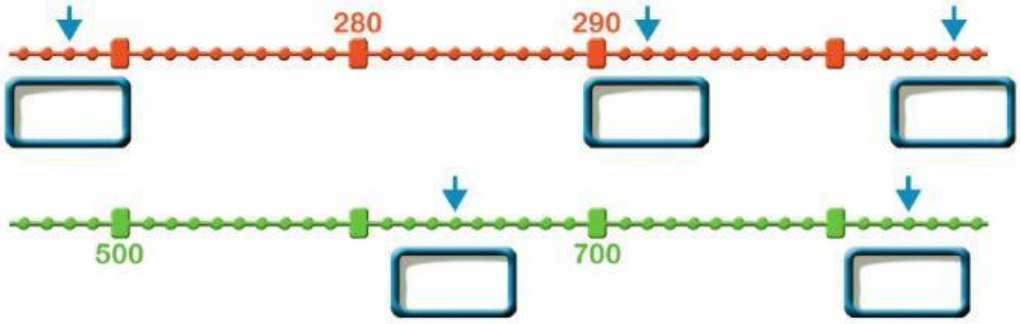

2. Igande batean zinemara joan ziren pertsonei buruzko grafikoa da hau. Irakurri grafikoa eta erantzun.

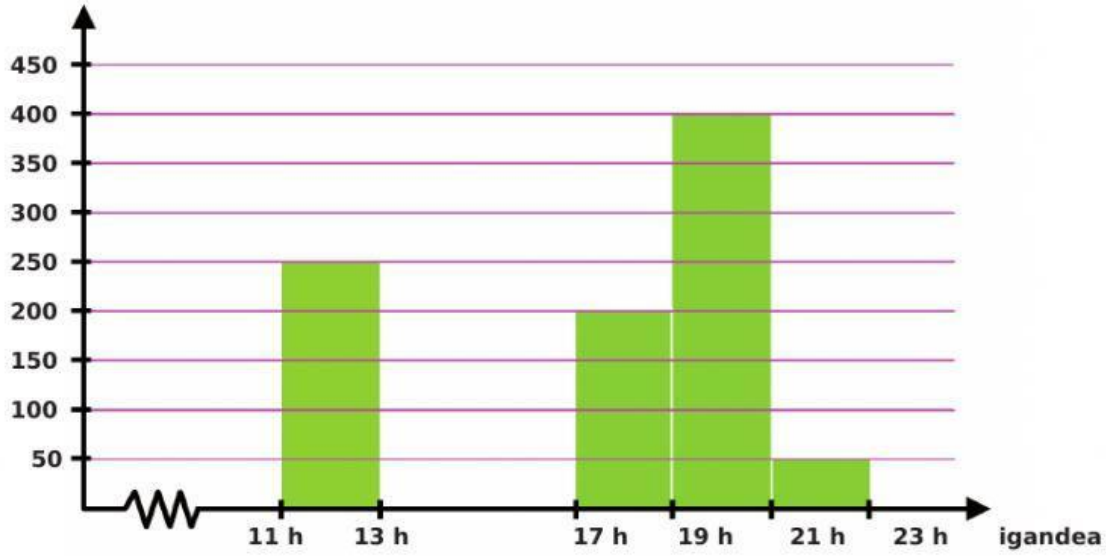

- Zenbat orduz egon da zabalik zinema-aretoa?
- Zenbat pertsona joan ziren zinemara igande goizean?
- Zenbat pertsona joan ziren zinemara igande horretan?

3. Pentsatu ondo eta asmatuko duzu!

Begoña Maria Jana Irene

LIVEWORKSHEETS

- Zenbat pertsona daude Mariaren ezkerrean?
- Zenbat pertsona daude Begoñaren aurrean?
- Zenbat pertsona daude Ireneren ezkerrean?
- Zenbat pertsonak dute globoa ezkerreko eskuan?
- Janak eskuan du aterkia.

4. Plastilinazko bolak jarri ditugu kuboaren erpinetan.

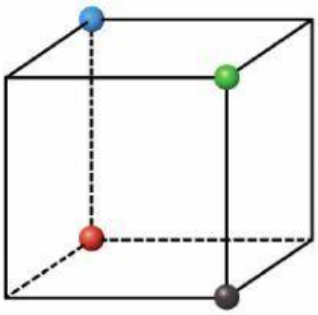

Bola berdea aurrean, goian, eskuinean dago.

Bola urdina , ,

Bola gorria , ,

Bola beltza , ,

5. Egin eragiketak.

2 8 3	3 9	2 5 6
+ 5 9	+ 4 2	+ 3 8 7
4 6 2	7 6	1 9 4
	2 8	

8 3	7 1 4	9 3 7
- 2 6	- 2 5 9	- 4 8 3

6 2 7

- 3 8 9

+

6 2 7

LIVEWORKSHEETS

6. Zifra hauek deskonposatu.

472 =

950 =

608 =

86 =

LIVEWORKSHEETS