11 IRUDI LAUAK. AZALERA

Osatu berdintzak.

55.213" =___°_____'_____"

20° 32' 50" =_____"

3.720" =___°_____'_____"

12° 41' 48" =_____'

Kokatu gaiak eta egin eragiketak.

115° 7' 52" + 12° 6' 12"

49º 22' 43" − 32º 14' 5"

120° 45' 19" − 26' 36"

Sailkatu angelu-pareak, osagarritan eta betegarritan.

45° eta 45° .....

34° eta 146° .....

34° eta 56° .....

135° eta 45° .....

Adierazi zenbat diagonal dituen poligono bakoitzak eta kalkulatu perimetroa.

A poligonoa

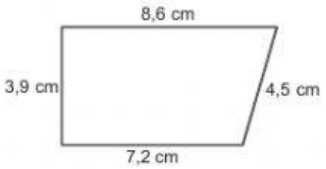

B poligonoa

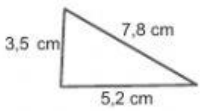

C poligonoa

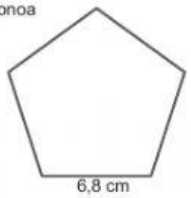

DIAGONALAK:	DIAGONALAK:	DIAGONALAK:
PERIMETROA:	PERIMETROA:	PERIMETROA:

LIVEWORKSHEETS