Nama:

school

YUK Coba Kita Belajar Sambil Bermain!

bacalah teks bacaan berikut ini

Olahraga

menjaga kesehatan tubuh itu penting
caranya dengan berolahraga
tubuh menjadi sehat karena berolahraga
olahraga baik untuk kesehatan tubuh
ada berbagai macam jenis olahraga
misalnya sepak bola bulu tangkis voli dan kasti

Berdasarkan bacaan, olahraga apa saja yang dapat menyehatkan tubuh?
Kamu dapat memilih lebih dari satu jawaban, berikan tanda centang (V)

☐ ☐ ☐

LIVEWORKSHEETS

Baca lagunya ya!

Dua mata saya
Dua mata saya, hidung saya satu
Satu mulut saya, tidak berhenti makan
Dua telinga saya, yang kiri dan kanan
Dua kaki saya, pakai sepatu baru

Berdasarkan lagu tersebut, anggota tubuh kita yang jumlahnya satu (1) adalah . . . .

A. hidung dan kaki

B. hidung dan mulut

C. hidung dan telinga

Jodohkanlah kosakata kegiatan persiapan menulis permulaan di kolom kiri dengan kalimat yang sesuai di kolom kanan

duduk	. . . digunakan untuk menulis
meja	menulis sebaiknya dilakukan dengan cara ini
pensil	letakkan buku yang dibaca di . . .

LIVEWORKSHEETS

Matahari bersinar cerah. Burung-burung mulai berkicau di dahan pohon. Anak-anak pergi ke sekolah, dan ayah pergi ke kantor.

Suasana tersebut menggambarkan pada saat . . .

A. pagi hari

B. siang hari

C. sore hari

Perhatikan gambar berikut!



Pemimpin keluarga adalah . . .

Perhatikan gambar berikut!



gambar tersebut berfungsi untuk menunjukkan . . .

LIVEWORKSHEETS

Perhatikan gambar!

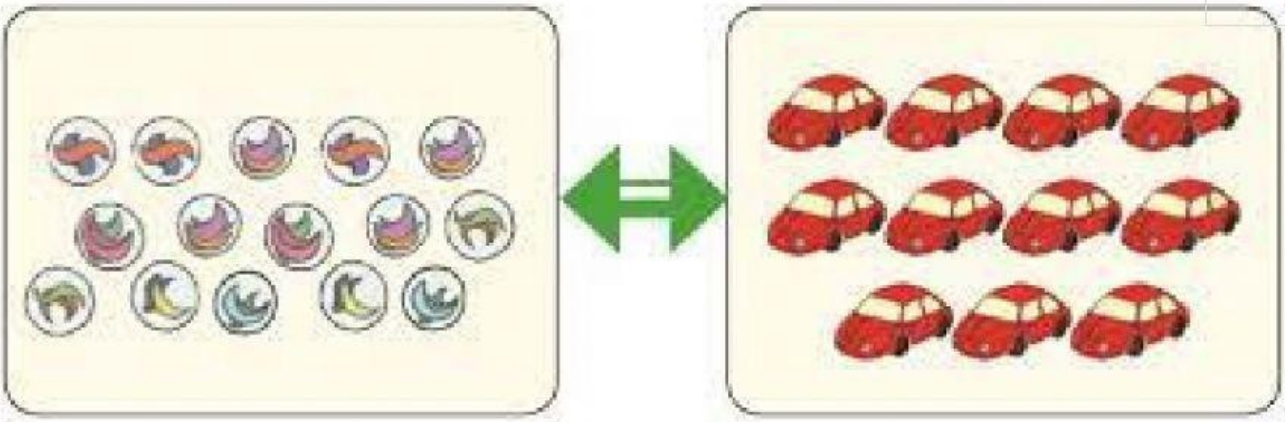

Jika mobil-mobilan ditambah 5 buah, maka mobil-mobilan lebih . . . . . dari kelereng

Anisa akan membandingkan jumlah buah apel dan jeruk. Tanda yang sesuai untuk membandingkan jumlah apel dengan jeruk adalah . . .

A. <

B. >

C. =



LIVEWORKSHEETS

Bilangan yang tepat untuk mengisi tabel adalah . . . .

puluhan	satuan

A. 1 puluhan dan 6 satuan

B. 1 puluhan dan 5 satuan

C. 1 puluhan dab 4 satuan

Qiana akan menggambar pola apel,kancil dan buaya pada gambar, Maka gambar yang tepat untuk mengisi yang kosong adalah . . .



ketik jawabanmu!

LIVEWORKSHEETS