Choose the best answer.

PP MODULE UPSR PRACTICE PAPER 1

1. UPSR CLONE 2018

0.2	1.0	0.6	1.0	0.4	2.0

Find the median of the above set of data.
Cari median bagi set data di atas.

A 0.4
B 0.6
C 0.8
D 1.0

2. The table shows the marks obtained by 10 pupils in a game.
Jadual di bawah menunjukkan markah yang diperoleh 10 orang murid dalam suatu permainan.

Marks *Markah*	8	12	16	20
Number of pupils *Bilangan murid*	3	1	5	1

Find the mode of the data.
Cari mod bagi data itu.

A 8
B 12
C 16
D 20

3. The table shows the marks of a few pupils in a test.
Jadual di bawah menunjukkan markah beberapa orang murid dalam suatu ujian.

Name/*Nama*	Marks/*Markah*
Roni	64
Sam	76
Hui Lin	89
Tavesh	93
Ajul	78

Calculate the mean mark of the pupils.
Hitung min markah bagi murid itu.

A 76
B 78
C 80
D 82

Given the mean of 4, 6, *K*, 12, 15, 8 and 9 is 10. What is the value of *K*?
Diberi min bagi 4, 6, K, 12, 15, 8 dan 9 ialah 10. Apakah nilai K?

A 7
B 11
C 13
D 16

5. The bar chart shows the number of workers in three companies. The number of workers in company *N* is not shown.
UPSR CLONE 2017
Carta palang di bawah menunjukkan bilangan pekerja di tiga buah syarikat. Bilangan pekerja di syarikat N tidak ditunjukkan.

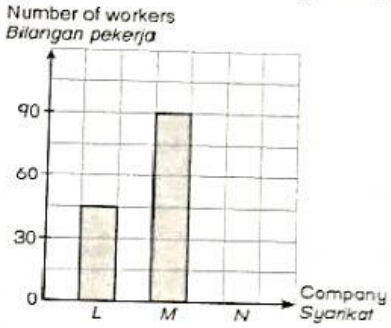

The total number of workers in the three companies is 200. Calculate the number of workers in company *N*.
Jumlah bilangan pekerja di ketiga-tiga syarikat itu ialah 200 orang. Hitung bilangan pekerja di syarikat N.

A 60
B 65
C 70
D 75

6. The pictograph shows the number of umbrellas produced by a factory in three months. The number of umbrellas produced in February is not shown.
Piktograf di bawah menunjukkan bilangan payung yang dihasilkan oleh sebuah kilang dalam tempoh tiga bulan. Bilangan payung yang dihasilkan dalam bulan Februari tidak ditunjukkan.

January/*Januari*	☂ ☂ ☂ ☂
February/*Februari*	
March/*Mac*	☂ ☂ ☂ ☂ ☂
April/*April*	☂ ☂ ☂

☂ represents 50 umbrellas
mewakili 50 kaki payung

LIVEWORKSHEETS

The mean number of umbrellas produced in each month is 250. How many symbols ☂ have to be drawn for February?
Min bilangan payung yang dihasilkan setiap bulan ialah 250 kaki. Berapakah bilangan simbol ☂ yang perlu dilukis untuk bulan Februari?

A 5 B 6
C 7 D 8

7. The pie chart shows the favourite subjects of 60 pupils.
Carta pai di bawah menunjukkan mata pelajaran yang digemari oleh 60 orang murid.

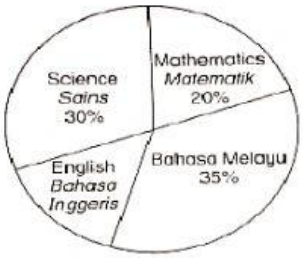

Calculate the number of pupils who like English.
Hitung bilangan murid yang menggemari mata pelajaran Bahasa Inggeris.

A 9 B 12
C 18 D 21

8. The pie chart shows the amount of money spent by 20 pupils.
Carta pai di bawah menunjukkan wang yang dibelanjakan oleh 20 orang murid.

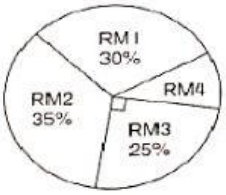

How many pupils spent RM4?
Berapakah bilangan murid yang berbelanja sebanyak RM4?

A 2
B 4
C 6
D 8

9. The table shows the time taken by 10 pupils to finish an assignment.
Jadual di bawah menunjukkan masa yang digunakan oleh 10 orang murid untuk menyiapkan suatu tugasan.

Time (hour) *Masa (jam)*	0.25	0.3	0.35	0.4
Number of pupils *Bilangan murid*	2	4	3	1

Calculate the range of time, in minutes, taken by them.
Hitung julat masa, dalam minit, yang digunakan oleh mereka.

A 15 B 12
C 10 D 9

10. The pictograph shows the favourite games of a group of pupils in a school. 2018
Piktograf di bawah menunjukkan sukan kegemaran bagi sekumpulan murid di sebuah sekolah.

Badminton *Badminton*	○ ○ ○ ○ ○ ○
Football *Bola sepak*	
Hockey *Hoki*	
Volleyball *Bola tampar*	○ ○ ○

○ represents 20 pupils
mewakili 20 orang

There 380 pupils in the group. The number of pupils who like football and hockey are the same. Calculate the number of pupils who like hockey.
Terdapat 380 orang murid dalam kumpulan itu. Bilangan murid yang menggemari bola sepak dan hoki adalah sama. Hitung bilangan murid yang menggemari hoki.

A 210 B 110
C 105 D 100

LIVEWORKSHEETS