טריגונומטריה

1) תנו שמות לצלעות המשולש ניצב/ יתר:

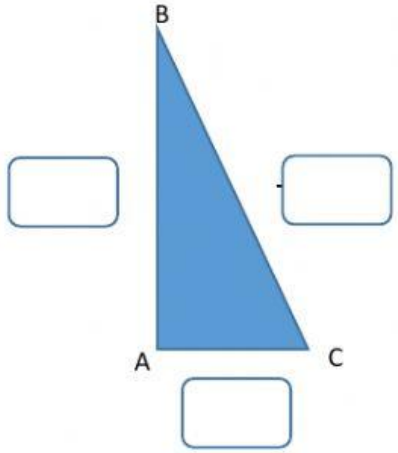

יתר | ניצב | ניצב

2) חשב את אורך הניצב:

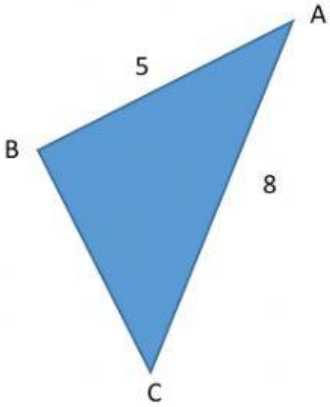

תשובה:

3) סמן נכון או לא נכון:

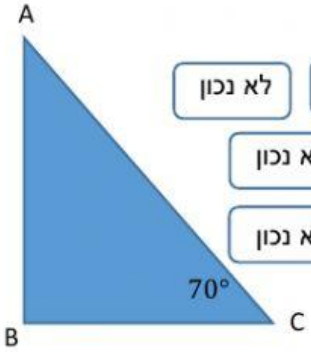

- זווית B היא זווית בת $90°$. נכון לא נכון
-
- זווית A היא בת $92°$. נכון לא נכון
-
- זווית C קטנה מ-$90°$. נכון לא נכון

LIVEWORKSHEETS