Họ và tên: Lớp:

Nhiệm vụ: Chọn/điền các thông tin thích hợp để hoàn thành phiếu học tập
Lưu ý: Viết đúng chính tả

TỔNG HỢP MỘT SỐ HÌNH PHẲNG TRONG THỰC TIỄN

1. Hình tam giác đều

Trong hình tam giác đều:

- Ba cạnh .....
- Ba góc bằng nhau và bằng ...°.
- C = ...

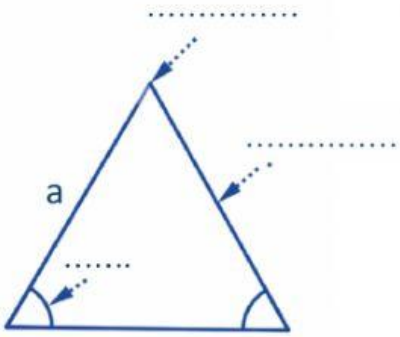

2. Hình vuông

Trong hình vuông:

- Bốn cạnh .....
- Bốn góc bằng nhau và bằng ...°.
- Hai đường chéo .....
- S = ...
- C = ...

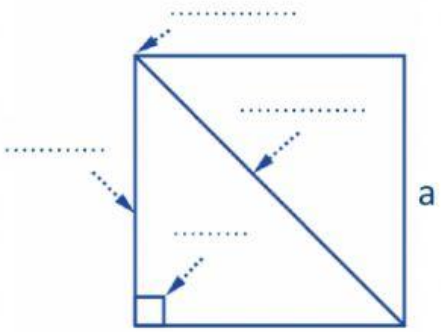

3. Hình lục giác đều

Trong hình lục giác đều:

- Có ... cạnh và chúng bằng nhau.
- Sáu góc bằng nhau, mỗi góc bằng ....°.
- Có ... đường chéo chính và chúng bằng nhau.
- C = ...

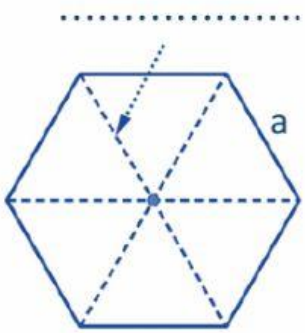

LIVEWORKSHEETS

4. Hình chữ nhật

Trong hình chữ nhật:

- Bốn góc bằng nhau và bằng ...°.
- Các cạnh đối .....
- Có ... đường chéo và chúng bằng nhau.

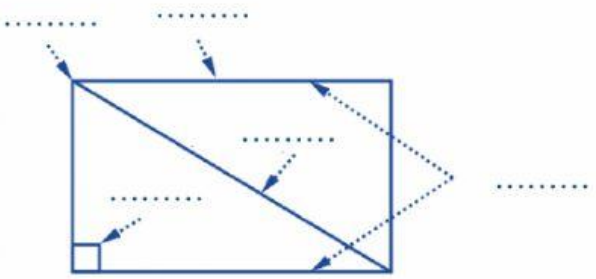

Cho hình chữ nhật có kích thước như hình bên. Chọn công thức đúng:

- C = ...
- S = ...



4. Hình thoi

Trong hình thoi:

- ..... cạnh bằng nhau.
- Hai đường chéo ..... với nhau.
- Các cạnh đối ..... với nhau.
- Các góc đối .....

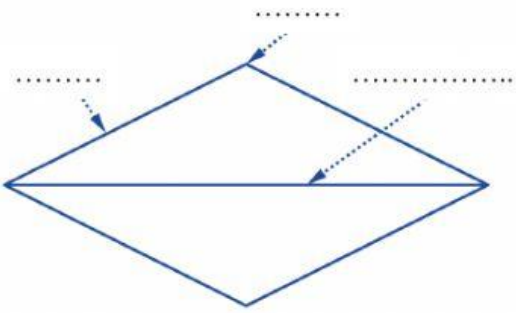

Cho hình thoi có kích thước như hình bên. Chọn công thức đúng:

- C = ...
- S = ...

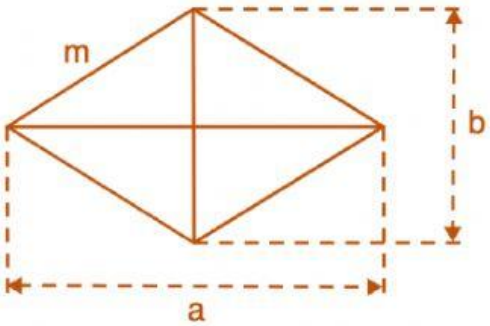

LIVEWORKSHEETS

5. Hình bình hành

Trong hình bình hành:

- Các cạnh đối .....
- Hai đường chéo cắt nhau tại ..... mỗi đường.
- Các góc đối .....

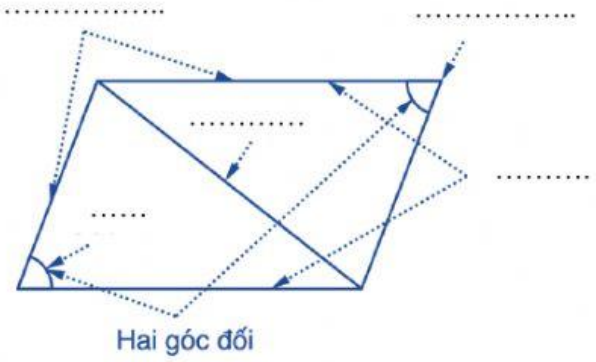

Cho hình bình hành có kích thước như hình bên. Chọn công thức đúng:

- C = ...
- S = ...

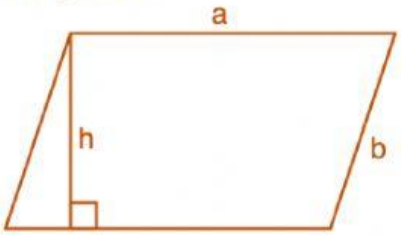

6. Hình thang

Trong hình thang cân:

- Hai cạnh bên .....
- Hai đường chéo .....
- Hai cạnh đáy ..... với nhau.
- Hai góc kề một đáy .....

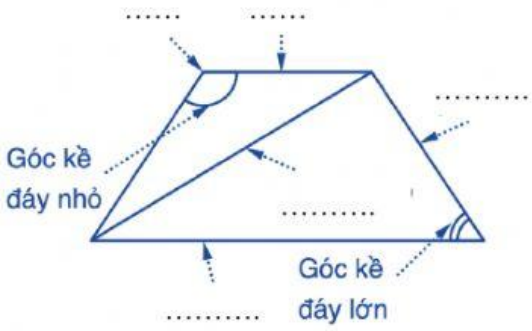

Cho hình thang có kích thước như hình bên. Chọn công thức đúng:

- C = ...
- S = ...

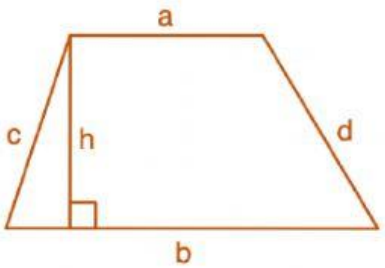

Hết

LIVEWORKSHEETS