عزيزي الطالب : شاهد الفيديو التالي ثم أجب عن الأسئلة التي تليه

نشاط (١)

تمعن الأشكال التالية ثم أجب عن التساؤلات:

	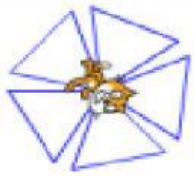	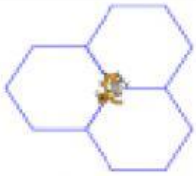		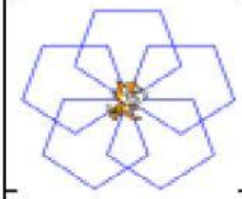
الشكل الأساسي في الزخرفة				
عدد مرات التكرار في حلقة الدوران الخارجية				
عدد مرات التكرار في حلقة الدوران الداخلية				
زاوية الاستدارة في التكرار الخارجي				
زاوية الاستدارة في التكرار الداخلي				

LIVEWORKSHEETS