Nama: ..... Kelas: ..... Tarikh: .....

# BAB 4: Pembiakan
## *Reproduction*

- **Tema 2:** ***Penyenggaraan dan Kesinambungan Hidup***

## PBD Sistem Pembiakan Manusia

Buku Teks: m.s. 98 – 101

**3** Rajah di bawah menunjukkan sistem pembiakan lelaki. **SP4.2.1** HEBAT SAINS MODUL 11
*The diagram below shows the male reproductive system.*

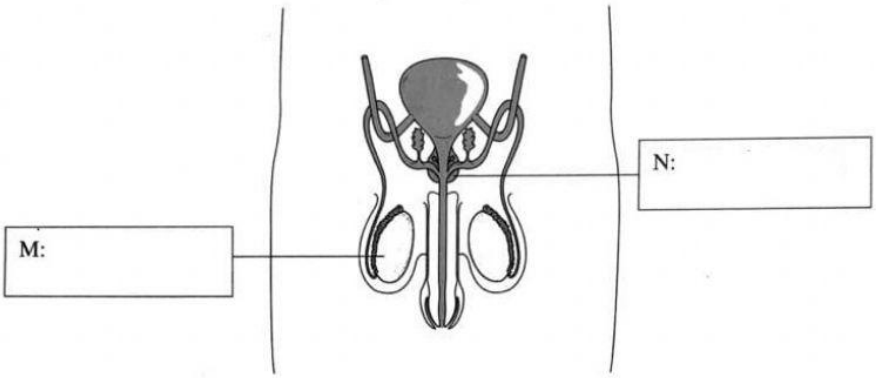


(a) Dalam rajah di atas, namakan M dan N dengan menggunakan perkataan-perkataan yang diberi dalam petak di bawah. TP1
*In the above diagram, name* M *and* N *by using the words given in the box below.*

| Testis<br>*Testis* | Duktus sperma<br>*Sperm duct* | Kelenjar prostat<br>*Prostate gland* |
|---|---|---|

(b) Nyatakan fungsi bahagian yang berlabel N. TP2
*State the function of the part labelled* N.

Menghasilkan _____ yang _____ dan melindungi sel _____.

*Secrete* _____ *which contains* _____ *and protects* _____ *cell.*

(c) Kebanyakan organisma ringkas membiak secara aseks melalui pelbagai cara.
Padankan contoh pembiakan aseks yang berikut dengan namanya yang betul. **SP4.1.1** TP1
*Many simple organisms reproduce asexually by various means.*
*Match the following examples of asexual reproduction with their correct names.*

| **Contoh pembiakan aseks**<br>***Examples of asexual reproduction*** | **Nama pembiakan aseks**<br>***Names of asexual reproduction*** |
|---|---|
| (i) 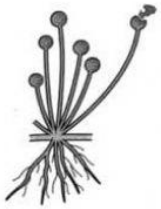 | Pertunasan<br>*Budding* |
| | Penjanaan semula<br>*Regeneration* |
| (ii) 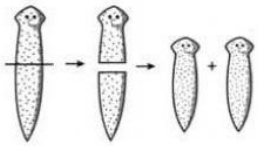 | Pembentukan spora<br>*Formation of spores* |

LIVEWORKSHEETS