CIJELI BROJEVI

Ponovi

1. Navedene brojeve razvrstajte u tablicu. 7, −2, −14, 65, 980, −293, −25, 95

Pozitivni cijeli brojevi	
Negativni cijeli brojevi	

2. Dopunite rečenice.

a) Brojevi 20 i −20 međusobno su _____ brojevi.

b) Broj −4 suprotni je broj broja _____. c) Suprotni broj broja 18 je broj _____.

3. Prikažite na brojevnom pravcu brojeve 3, −6, −4, 4 i −1.

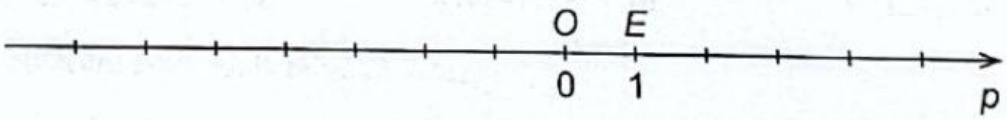

4. Napišite neposredni prethodnik i neposredni sljedbenik navedenih brojeva.

a)

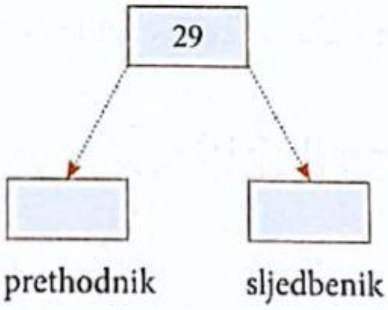

b)

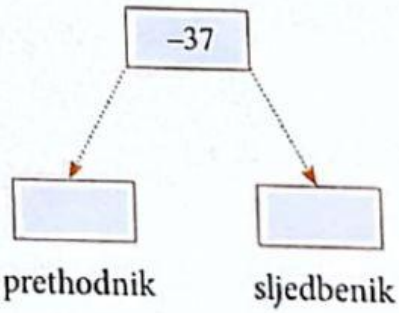

5. Usporedite brojeve.

a) 17 ☐ 22 b) −14 ☐ 16 c) 0 ☐ −20 d) −40 ☐ −30

Scanned with CamScanner
LIVEWORKSHEETS

6. Izračunajte.

a) $-18 + (-11) =$ b) $-13 + 6 =$ c) $10 + (-7) =$

d) $-13 - 5 =$ e) $9 - (-15) =$ f) $-6 - (-2) =$

7. Izračunajte.

a) $53 \cdot (-1) =$ b) $-28 \cdot 4 =$ c) $-5 \cdot (-21) =$

d) $-56 : 7 =$ e) $200 : (-40) =$ f) $-176 : (-8) =$

8. Podijelite, pa rezultat dijeljenja provjerite množenjem.

a) $357 : (-21) =$ b) $-782 : (-34) =$ c) $-465 : 15 =$

9. Izračunajte.

a) $14 - (-3 + 7) =$ b) $-9 + (15 - 17) =$

c) $-8 - 2 + 4 - 10 + 1 =$ d) $13 - (-2) + (-11) =$

10. Izračunajte.

a) $2 - 18 : 3 =$ b) $-21 \cdot (-7) + 9 =$

c) $(6 - 10) : 4 =$ d) $25 : (-5) + 6 \cdot 3 =$

Scanned with CamScanner
LIVEWORKSHEETS