
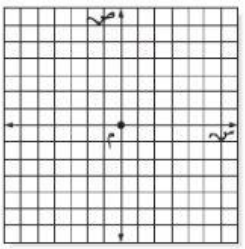
٣ — ٧ التمثيل البياني للدوال

مثّل كلَّ معادلة ممَّا يأتي بيانيًّا:


١ ص = س − ٢




٢ ص = − س



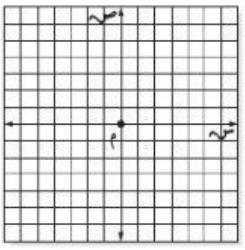
٣ ص = ٢ س − ١




٤ ص = ٠,٧٥ س



٥ ص = س − ٠,٥




٦ ص = ٠,٥ س + ٢



للتمرينين ٧ – ٨ مثل بيانيًّا الدالة التي يُعبِّر عنها كل جدول:


٧

س	ص
٠	٣,٥
١	٢,٥
٢	١,٥
٣	٠,٥




٨

س	ص
١	٦
٠	٤,٥
−١	٣
−٢	١,٥



٩ ضغط : يتزايد ضغط المحيط بمقدار ضغط جوي واحد لكل ١٠ م من عمق الماء. يمكن تمثيل هذه العلاقة بالدالة التالية : ض = ١,٠ ع، حيث ض: الضغط الجوي عند العمق ع. مثّل هذه الدالة بيانيًّا.



LIVEWORKSHEETS