ชื่อ.....เลขที่.....ชั้นประถมศึกษาปีที่ 6

ใบงานเรขาคณิตสองมิติ

รูปสามเหลี่ยมแบ่งตามลักษณะของด้าน

รูปสามเหลี่ยมด้านเท่า	มีด้านทั้งสามยาวเท่ากัน
รูปสามเหลี่ยมหน้าจั่ว	มีด้านสองด้านยาวเท่ากัน
รูปสามเหลี่ยมด้านไม่เท่า	มีด้านทั้งสามยาวไม่เท่ากัน

แบบฝึกหัด เรื่อง รูปสามเหลี่ยมแบ่งตามลักษณะของด้าน

ตัวอย่าง

ตอบ △ กขค เป็นรูปสามเหลี่ยมด้านเท่า

1. **บอกชนิดของรูปสามเหลี่ยม**

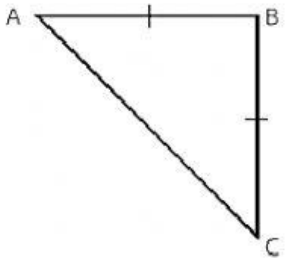

△ ABC เป็นรูปสามเหลี่ยม.....

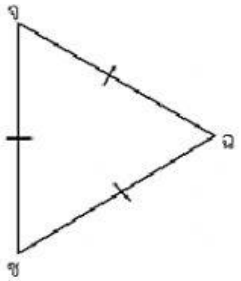

△ จฉช เป็นรูปสามเหลี่ยม.....

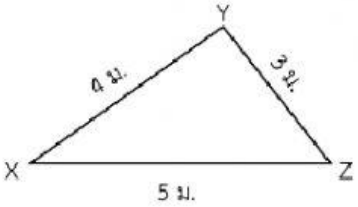

△ XYZ เป็นรูปสามเหลี่ยม.....

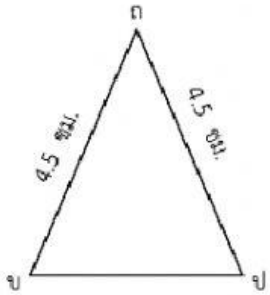

△ บปถ เป็นรูปสามเหลี่ยม.....

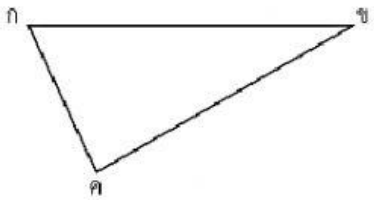

△ กขค เป็นรูปสามเหลี่ยม.....

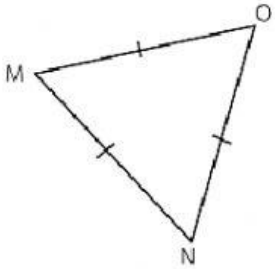

△ MNO เป็นรูปสามเหลี่ยม.....

LIVEWORKSHEETS

2. บอกชนิดของรูปสามเหลี่ยมพร้อมบอกเหตุผล จากข้อความที่กำหนดให้

1) รูปสามเหลี่ยมที่มีด้านทุกด้านยาวด้านละ 5.5 เซนติเมตร

เป็นรูปสามเหลี่ยม ด้านเท่า

เพราะ มีด้านทั้งสามยาวเท่ากัน

2) รูปสามเหลี่ยมที่มีด้านยาว 4 เซนติเมตร 5 เซนติเมตร และ 6 เซนติเมตร

เป็นรูปสามเหลี่ยม .....

เพราะ .....

3) รูปสามเหลี่ยมที่มีด้านยาว 6 เซนติเมตร 7 เซนติเมตร และ 6 เซนติเมตร

เป็นรูปสามเหลี่ยม .....

เพราะ .....

4) รูปสามเหลี่ยมที่มีด้านที่อยู่ติดกันยาวเท่ากัน

เป็นรูปสามเหลี่ยม .....

เพราะ .....

5) รูปสามเหลี่ยมที่มีด้านที่อยู่ติดกันยาวเท่ากัน 1 คู่

เป็นรูปสามเหลี่ยม .....

เพราะ .....

LIVEWORKSHEETS