ГЕОГРАФІЧНІ КООРДИНАТИ

Пам'ятаєш, як герої роману Жуля Берна «Діти капітана Гранта» здійснили навколосвітню подорож у пошуках потерпілих у корабельній трощі?А сталося це тому, що вони не мали точних координат…

Крок1. З'єднай правильно

Географічна широта		Відраховується від екватора Обчислюється від 0^0 до 90^0
Географічна довгота		Є продовженням 0^0 меридіану
Грінвіцький		Буває східною і західною Обчислюється від 0^0 до 180^0
Північний полюс		Поділяє землю на північну і південну півкулі
Екватор		0 меридіан
180 меридіан		Має широту 90^0 пн.ш.

Крок 2. Визнач об'єкт. Впиши його назву

➢ 1871 р. один відомий мандрівник висадився на берег великого острова на 5 пд.ш. 146 сх.д., щоб вивчити життя і побут його жителів.

➢ На великому острові, центральна частина якого розташована на 19 пд.ш. 47 сх.д., живуть найменші напівмавпи (довжина їхнього тіла – 12 см).

Крок 2 За координатами (використовуючи карту півкуль) визнач об'єкти.

50 пн.ш. 31 сх.д.
60 пн.ш. 31 сх.д.
19 пн.ш. 98 зх.д.
52 пн.ш. 0 д.
41 пн.ш. 73 зх.д.
32 пд.ш. 70 зх.д.
23 пд.ш. 42 зх.д

З перших букв склади слово (герой мультфільму)

Крок 3 Допиши назву та визнач координати об'єктів-рекордсменів

Найвища точка Землі		
Найвищий водоспад		
Гирло найдовшої річки		

Крок 4 Визнач координати точок (розмісти їх до відповідних пляшок)

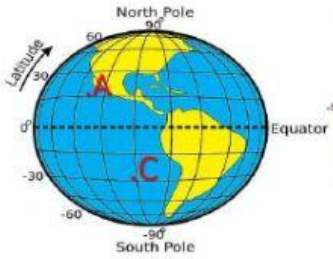

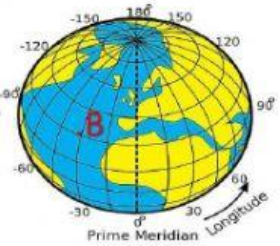

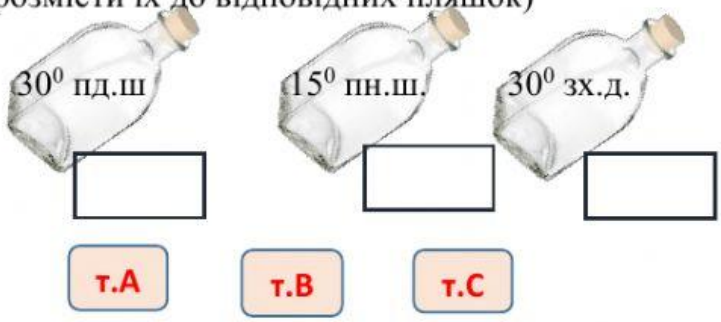

LIVEWORKSHEETS