
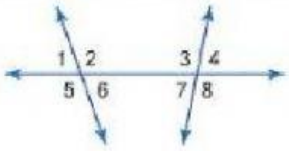
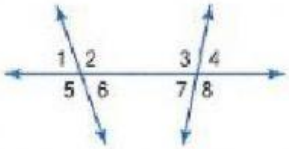
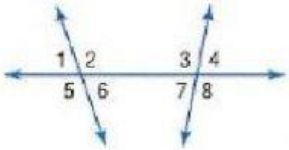
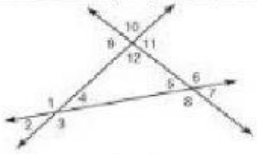
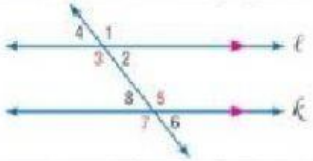
المملكة العربية السعودية
وزارة التعليم
مكتب تعليم جدة
الثانوية الثامنة والستون

الاسم ..... الصف :.....

1	من الشكل المقابل جميع المستقيمات الاتية توازي $\overleftrightarrow{AB}$ ماعدا  nj.com أ $\overleftrightarrow{DC}$ ب $\overleftrightarrow{FG}$ ج $\overleftrightarrow{EH}$ د $\overleftrightarrow{EC}$
2	من الشكل المقابل الزاويتان ∠6 , ∠3 يطلق عليهما زاويتان  أ متحالفتان ب متبادلتان داخلياً ج متبادلتان خارجياً د متناظرتان
3	من الشكل المقابل الزاويتان ∠3 , ∠2 يطلق عليهما زاويتان  أ متحالفتان ب متبادلتان داخلياً ج متبادلتان خارجياً د متناظرتان
4	من الشكل المقابل الزاويتان ∠3 , ∠1 يطلق عليهما زاويتان  أ متحالفتان ب متبادلتان داخلياً ج متبادلتان خارجياً د متناظرتان
5	من الشكل الاتي أي من أزواج الزوايا الاتية متحالفتان  أ ∠6 , ∠10 ب ∠8 , ∠10 ج ∠1 , ∠9 د ∠4 , ∠9
6	إذا قطع قاطع مستقيمين متوازيين فأي من أزواج الزوايا الاتية يكون غير متطابق أ المتحالفتين ب المتبادلتين خارجياً ج المتناظرتين د المتبادلتين خارجياً
7	من الشكل المقابل إذا كانت $m\angle 3 = 130^\circ$ فإن $m\angle 7$ تساوي  أ 80° ب 50° ج 180° د 130°

عمل الطالبة / ريماس طلال الحربي

إهداء للمعلمة / أ. ابتسام الغامدي

موقع مناهج

LIVEWORKSHEETS