ROYAL INTERNATIONAL BILINGUAL SCHOOL
A member of HUTECH EDUCATION

Họ và tên: .....

Lớp: 1B1

ÔN TẬP GIỮA HỌC KÌ I

Đánh dấu ✓ vào trước câu trả lời đúng.

<u>Câu 1:</u> Vật nào có dạng khối lập phương ?

A.

B.

C.

<u>Câu 2:</u> Khẩu trang ở vị trí nào?

A. Bên trái

B. Ở giữa

C. Bên phải

<u>Câu 3:</u> Điền số thích hợp vào chỗ trống:

A. 2

B. 3

C. 4

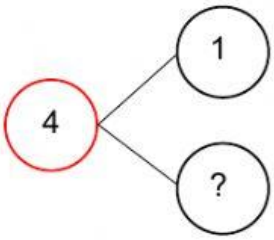

<u>Câu 4:</u> Điền số thích hợp vào chỗ chấm: .... < 3

A. 3 B. 4 C. 2

LIVEWORKSHEETS

Câu 5: Chọn sơ đồ phù hợp với hình bên:

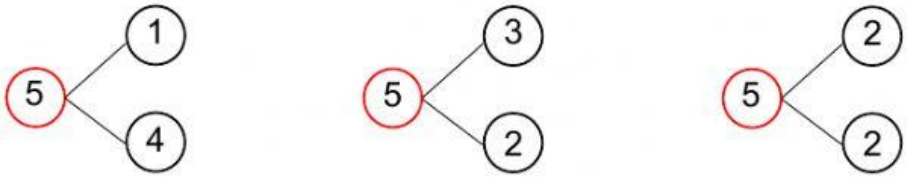

Câu 6: Dãy số được sắp xếp theo thứ tự từ *lớn đến bé* là:

A. 2,1,3 B. 3,2,1 C. 2,3,1

Câu 7: Đếm, viết số:

a/

b/

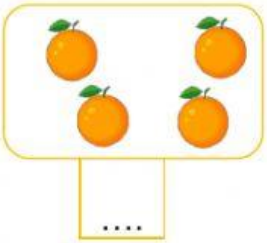

Câu 8: Điền số thích hợp vào chỗ chấm:

a/

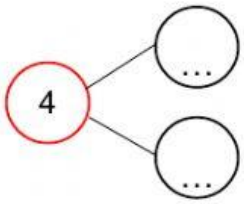

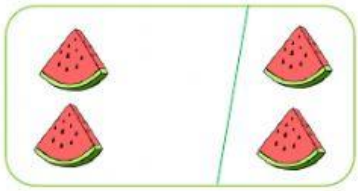

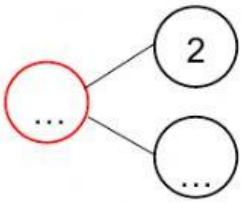



LIVEWORKSHEETS

<u>Câu 9:</u> Điền dấu: >, <, =

a/ 1 ..... 3 b/ 5 5

<u>Câu 10:</u> Điền số thích hợp vào chỗ chấm:

1 — . .. — 3 — . .. — 5 — 6

<u>Câu 11:</u> Viết các số 3, 2, 6 theo thứ tự từ *lớn đến bé*

⇨ ..... , ... , ...

<u>Câu 12:</u> Hình bên có:



a/ ..... hình chữ nhật

b/ ..... hình tam giác

LIVEWORKSHEETS