一站通

① 说出以下立体的名称。

(a) 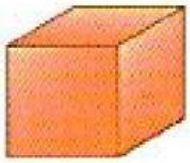

(b)

(c) 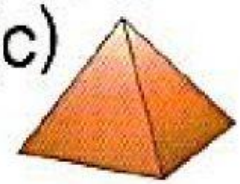

(d)

正方棱锥体	圆柱体	正方体	圆锥体

② 说出 W、X、Y 和 Z 的名称。

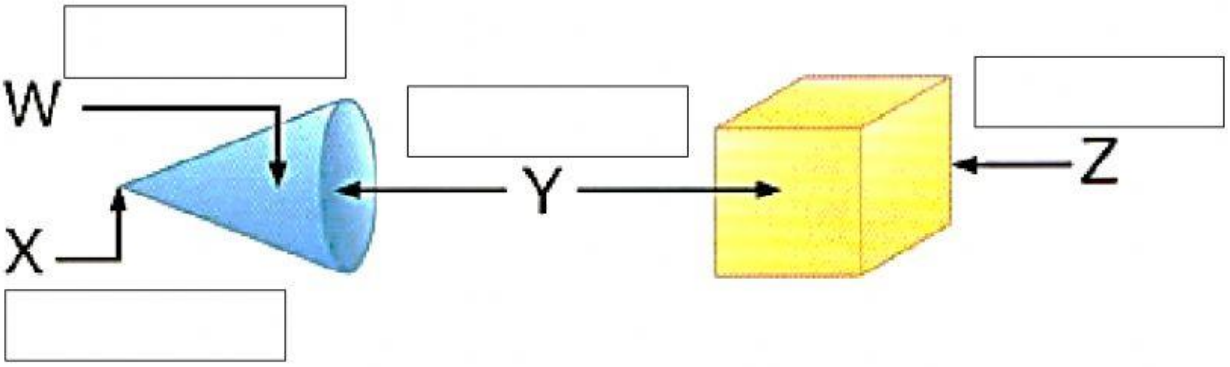

顶点	平面	边	曲面

③ 圆锥体各有多少个平面、曲面和顶点？

平面	曲面	顶点

LIVEWORKSHEETS

④ 圆柱体有没有顶点？

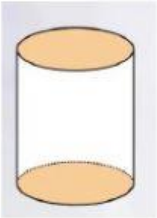

有	没有

⑤

接下来是什么？

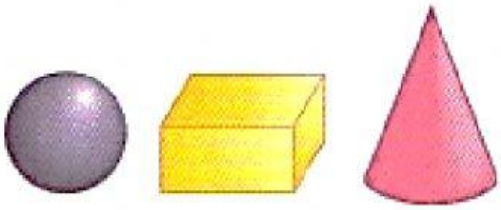

LIVEWORKSHEETS