Câu 1: Đây là quá trình phân bào gì?

Cho biết tế bào ban đầu có bộ NST 2n = 4

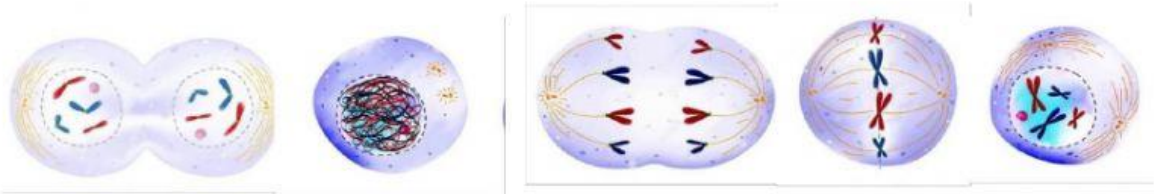

1 2 3 4 5

Sắp xếp các kì theo thứ tự đúng là:

Câu 2: Đây là quá trình phân bào gì?

Cho biết tế bào ban đầu có bộ NST 2n = 6



1 2 3 4

Sắp xếp các kì theo thứ tự đúng là:

Câu 3: Đây là quá trình phân bào gì?

Cho biết tế bào ban đầu có bộ NST 2n = 6

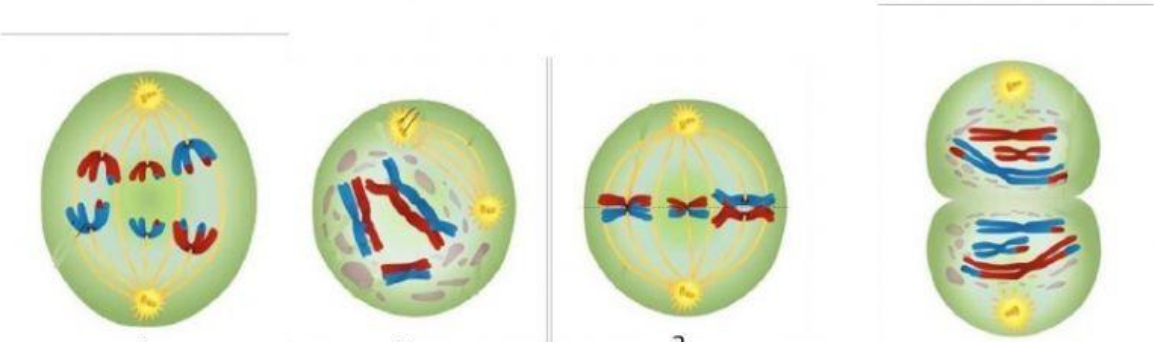

1 2 3 4

Sắp xếp các kì theo thứ tự đúng là:

LIVEWORKSHEETS