NAMA : _____ KELAS : _____

Tulis ayat matematik bagi tambah berulang di bawah.

1.



☐ + ☐ + ☐ = ☐

2.

☐ + ☐ + ☐ + ☐ + ☐ = ☐

3.



☐ + ☐ + ☐ + ☐ = ☐

4.

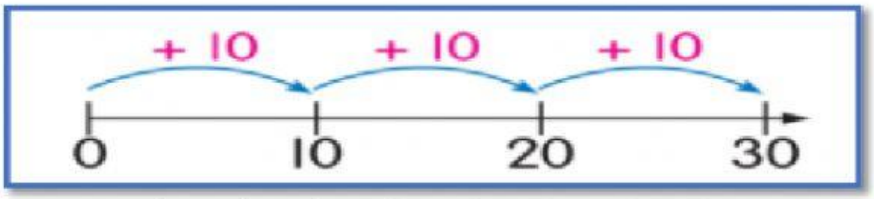

☐ + ☐ + ☐ = ☐

5.

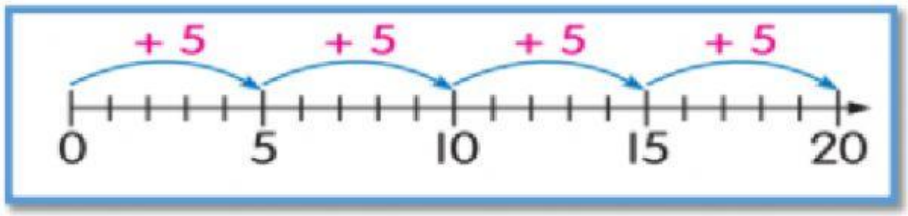

☐ + ☐ + ☐ + ☐ = ☐

LIVEWORKSHEETS

Tambahkan.

	puluh	sa
	4	2
+	2	6

	puluh	sa
	3	7
+	4	1

	puluh	sa
	3	4
+	2	0

	puluh	sa
	5	2
+	3	1

	puluh	sa
	3	5
+	6	3

	puluh	sa
	5	0
+	4	3

	puluh	sa
	2	0
+	6	2

	puluh	sa
	2	6
+	5	3

	puluh	sa
	3	4
+	1	4

	puluh	sa
	8	2
+	1	4

LIVEWORKSHEETS

Selesaikan operasi tolak.

puluh sa 2 0 - 1 0	puluh sa 1 3 - 2	puluh sa 2 7 - 3
puluh sa 2 9 - 1 9	puluh sa 1 8 - 1 5	puluh sa 3 6 - 1 3
puluh sa 3 9 - 2 2	puluh sa 4 5 - 2	puluh sa 1 9 - 1 0
puluh sa 3 6 - 4	puluh sa 4 2 - 1 2	puluh sa 4 8 - 2 3

LIVEWORKSHEETS