El Roc i la Nora han arribat a Oceania. A Oceania fa molta calor, per això els seus habitants aprofiten durant tot l'any per a menjar gelats.

La Nora i el Roc han realitzat una enquesta als habitants que han trobat pel carrer.

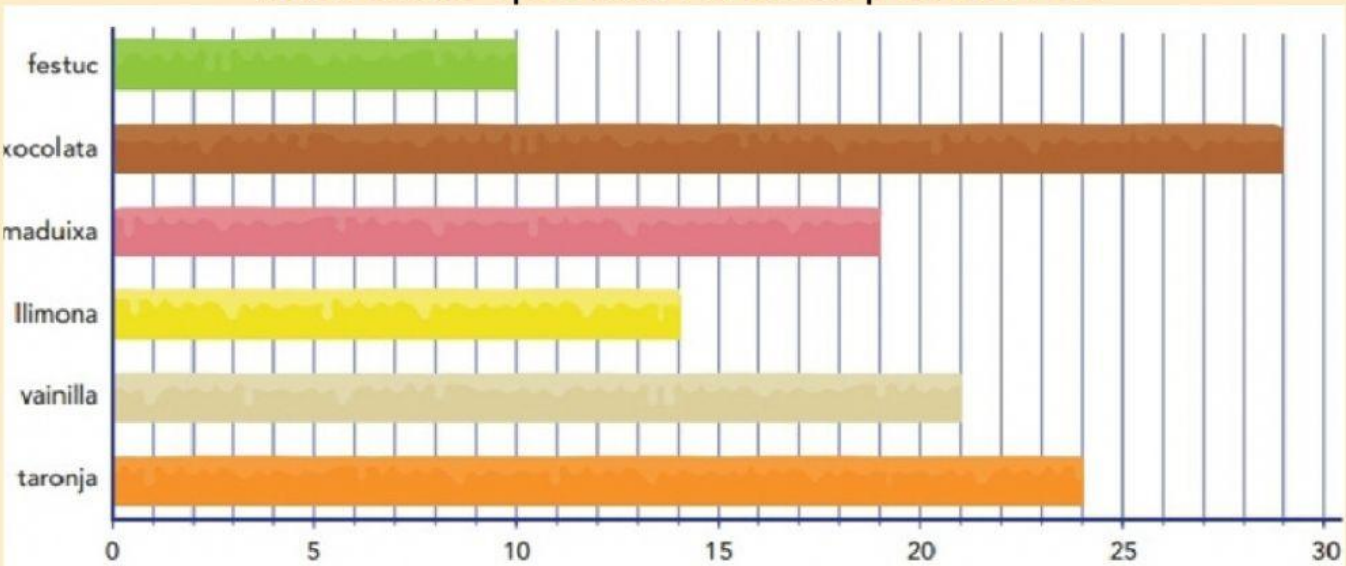

- Quin gust agrada més?
- Quantes persones han triat el de vainilla? ..
- Quin gust han triat 14 persones?
- Quin gust agrada més: el de maduixa o el de taronja?
- Quantes persones més han triat el de taronja respecte al de llimona? .
- Quin ha estat el gust menys triat?

A partir del gràfic completa la taula

gust	freqüència
festuc	
xocolata	
maduixa	
llimona	
vainilla	
taronja	

El nombre de vegades que es repeteix una dada s'anomena **freqüència**.

En un bar de Sydney s'han venut en un dia aquests refrescos
completa la taula comptant les vendes

	vendes	total
magrana	𝍸 𝍸 𝍸 ||	
taronja	𝍸 𝍸 𝍸 𝍸 𝍸 |||	
poma	𝍸 𝍸 𝍸 𝍸 𝍸	
tomàquet	𝍸 𝍸 𝍸 ||||	
maduixa	𝍸 𝍸 𝍸 𝍸 |	



- Quants sucs de taronja més que de magrana s'han venu
- Quants sucs de tomàquet i de maduixa s'han venut en tota
- Fes una pregunta que es pugui contestar amb la informació del gràfic:

Ajuda al pescador a pescar el peix. Suma de 4 en 4