คำชี้แจง เติมตัวเลขแสดงจำนวน และเขียนประโยคสัญลักษณ์การหาร

1.

มีปลา 12 ตัว แบ่งใส่ถุง ถุงละ ..... ตัว แบ่งได้ ..... ถุง

ประโยคสัญลักษณ์การหาร .....÷.....=.....

2.



มีแอปเปิล 20 ผล จัดใส่จาน จานละ ..... ผล จัดได้ ..... จาน

ประโยคสัญลักษณ์การหาร .....÷.....=.....

3.



ลูกอม 12 เม็ด แบ่งเป็นกอง กองละ ..... เม็ด จัดได้ ..... กอง

ประโยคสัญลักษณ์การหาร .....÷.....=.....

4.



ไอศกรีม 36 แท่ง แบ่งใส่ถุง ถุงละ ..... แท่ง จัดได้ ..... ถุง

ประโยคสัญลักษณ์การหาร .....÷.....=.....

LIVEWORKSHEETS