LATIHAN

Name: Date:

Section: Score:

KERJAKAN LATIHAN BERIKUT INI !

1. Pernyataan berikut yang menggambarkan kegiatan produksi yaitu...

A. Maya membeli bermaca-macam alat rumah tangga
B. Pak Karjo sedang mencangkul di sawah
C. Bu Zahra membeli bermacam-macam kebutuhan pokok di pasar tradisional
D. Bunga berangkat ke sekolah menggunakan sepeda motor
E. Yusuf menabung di Koperasi Sekolah

2. Perhatikan bagan interaksi berikut ini

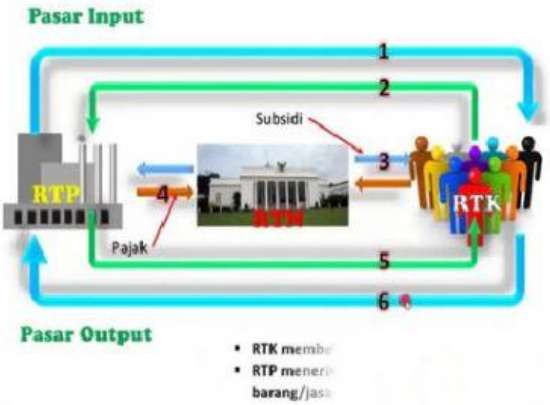

Berdasarkan bagan diatas yang merupakan adanya penawaran faktor produksi seperti tenaga kerja, modal, tanah dan sebagainya adalah nomor ....

A. 1
B. 2
C. 3
D. 4
E. 5

LIVEWORKSHEETS

3. Perhatikan faktor yang mempengaruhi tingkat konsumsi seseorang!

1. Pendapatan
2. mode barang
3. harga barang
4. status social
5. adat istiadat
6. motivasi

Berdasarkan uraian di atas, yang termasuk faktor eksternal yang mempengaruhi konsumsi yaitu nomor ....

A. 1,2,dan 3
B. 1,2,dan 4
C. 2,3,dan 4
D. 2,3,dan 5
E. 2.4.dan 6

4. Dalam melakukan kegiatan produksi Rumah Tangga Produsen (RTP) membutuhkan beberapa faktor produksi. Di bawah ini yang termasuk factor produksi asli yaitu .....

A. Alam dan modal
B. Modal dan tenaga kerja
C. Modal dan skill
D. Alam dan tenaga kerja
E.Alam dan skill

5. Berikut peran pelaku ekonomi dalam kegiatan ekonomi

1. Menyediakan barang-barang untuk diekspor
2. Menyediakan fasilitas untuk kegiatan ekspor dan impor
3. Melindungi industri dalam negeri dengan kebijakan proteksi
4. Menjaga kestabilan harga dalam negeri melalui kebijakan moneter
5. Menggunakan barang-barang produksi dalam negeri

Peran rumah tangga pemerintah ditunjukkan pada nomor...

A.1,4,dan 6
B.1,5,dan 6
C.2,3,dan 4
D.3,4,dan 5
E.4,5,dan 6

LIVEWORKSHEETS

6.Pernyataan berikut yang menggambarkan kegiatan distribusi yaitu...

A.Maya membeli bermaca-macam alat rumah tangga
B.Pak Karjo sedang mencangkul di sawah
C.Bu Zahra membeli bermacam-macam kebutuhan pokok di pasar tradisional
D.Yusuf menabung di Koperasi Sekolah
E. Bunga menjual sepeda motor secara online

7. Perhatikan bagan interaksi berikut ini :

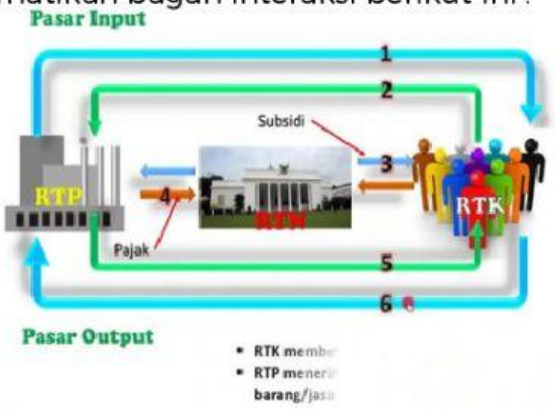

Peran yang ditunjukkan nomor (2) adalah ....
A.menyerahkan faktor produksi yang dimiliki
B.menerima barang dan jasa yang dibeli
C.menerima uang atas barang dan jasa
D.menyerahkan uang atas faktor produksi
E.menerima faktor produksi yang dibutuhkan

8. Perhatikan faktor yang mempengaruhi tingkat konsumsi seseorang!
1. Pendapatan
2. mode barang
3. harga barang
4. status social
5. adat istiadat
6.motivasi

Berdasarkan uraian di atas, yang termasuk faktor internal yang mempengaruhi konsumsi yaitu nomor ....
A. 1,2,dan 3
B. 1,4,dan 6
C. 2,3,dan 4
D. 2,3,dan 5
E. 2,4,dan 6

LIVEWORKSHEETS

9. Dalam melakukan kegiatan produksi Rumah Tangga Produsen (RTP) membutuhkan beberapa faktor produksi. Di bawah ini yang termasuk factor produksi turunan yaitu .....

A. Alam dan modal
B. Modal dan tenaga kerja
C. Modal dan skill
D. Alam dan tenaga kerja
E.Alam dan skill

10. Berikut peran pelaku ekonomi dalam kegiatan ekonomi

1. Menyediakan barang-barang untuk diekspor
2. Menjaga kestabilan harga dalam negeri melalui kebijakan moneter
3. Menggunakan barang-barang produksi dalam negeri
4. Menyediakan fasilitas untuk kegiatan ekspor dan impor
5. Melindungi industri dalam negeri dengan kebijakan proteksi

Peran rumah tangga pemerintah ditunjukkan pada nomor...

A.1,4,dan 6
B.1,5,dan 6
C.2,3,dan 4
D.2,4,dan 5
E.4,5,dan 6

KURANG CERDAS
dapat diperbaiki dengan belajar

KURANG CAKAP
dapat dihilangkan dengan pengalaman

Namun

TIDAK JUJUR
ITU SULIT DIPERBAIKI

Mohammad Hatta

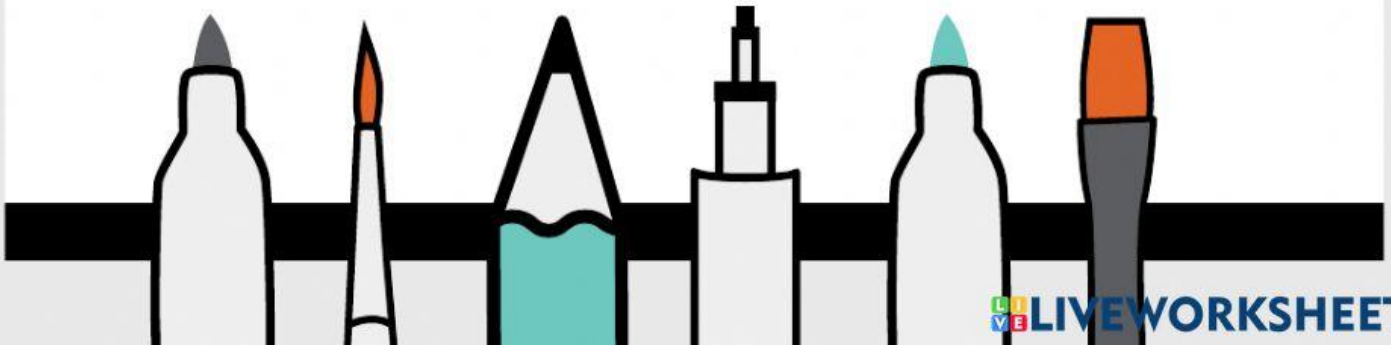

LIVEWORKSHEETS