CHỦ ĐỀ: DIỆN TÍCH

Bài tập:

1 Find the perimeter of each figure.

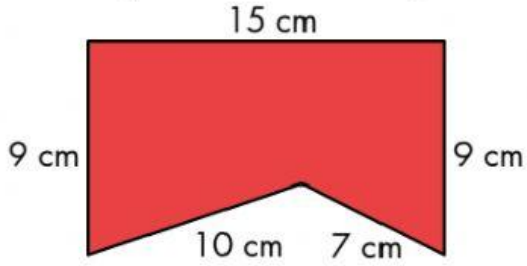

Perimeter = _____

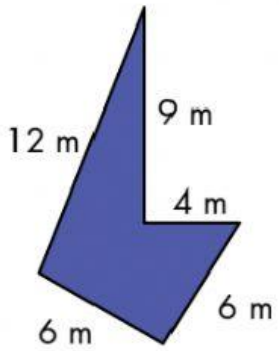

Perimeter = _____

2 Find the area of each figure.

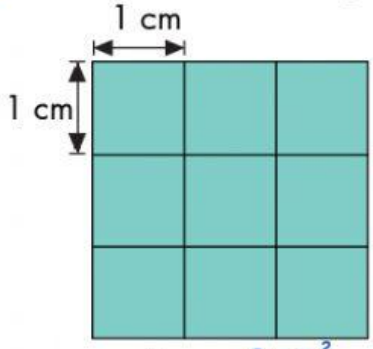

Area = 9 cm^2

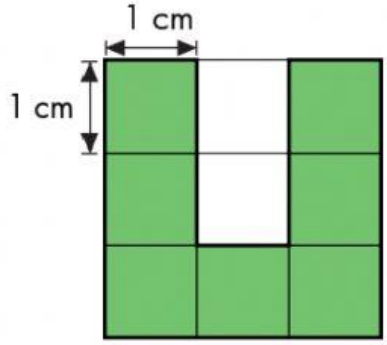

Area = ____

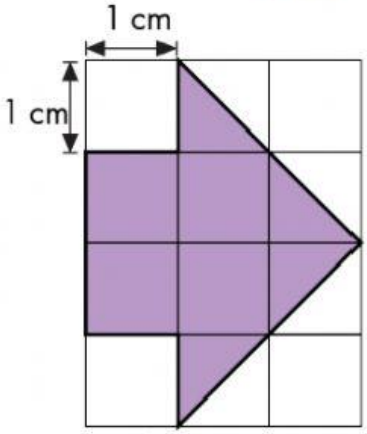

Area = ____

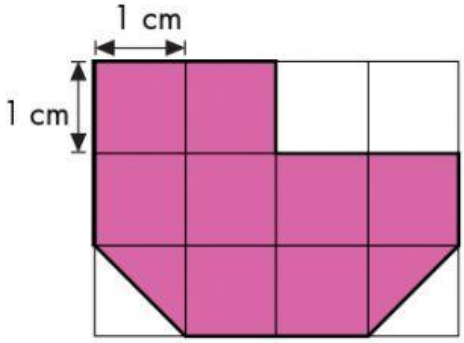

Area = ____

perimeter: chu vi *area: diện tích*

LIVEWORKSHEETS

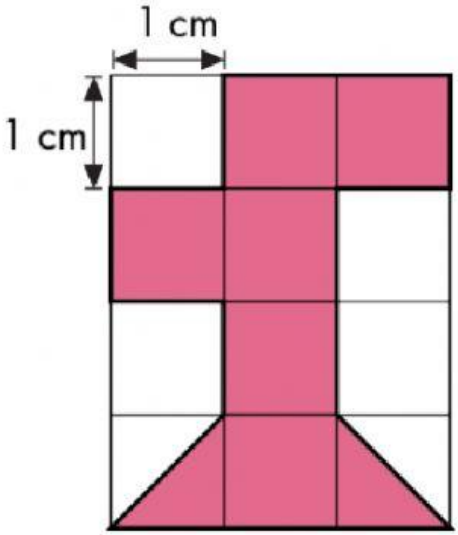

Area = ____

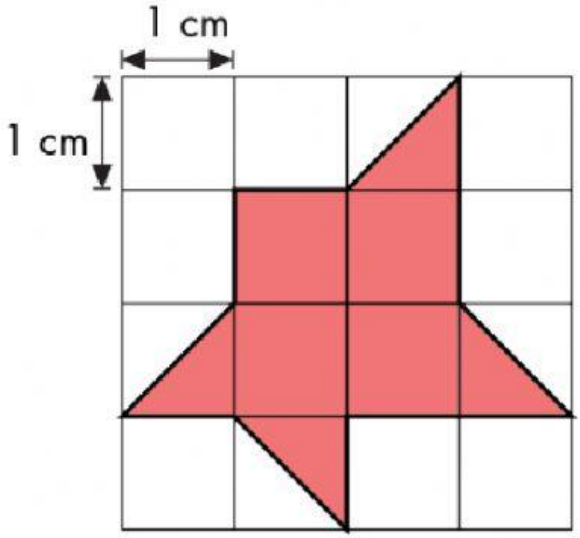

Area = ____

3 Find the perimeter and area of each figure.

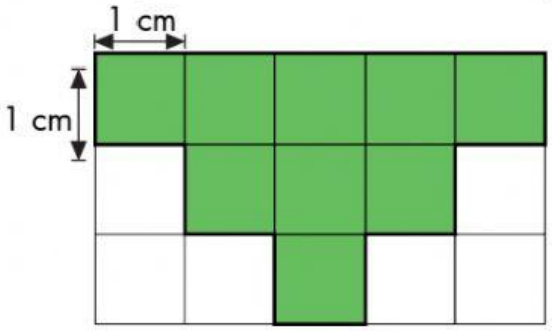

Area = 9 cm^2

Perimeter = ____

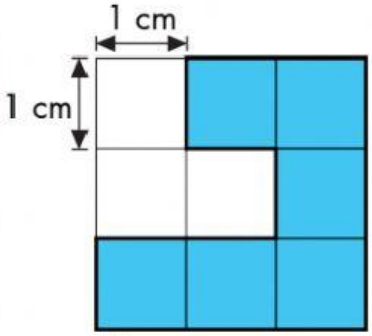

Area = ____

Perimeter = ____

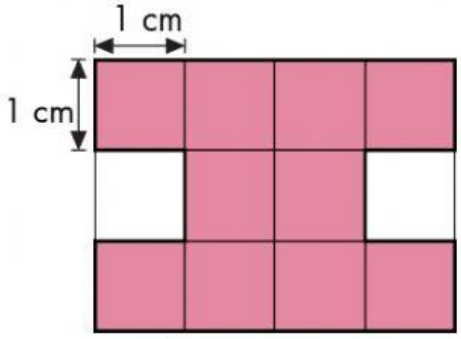

Area = ____

Perimeter = ____

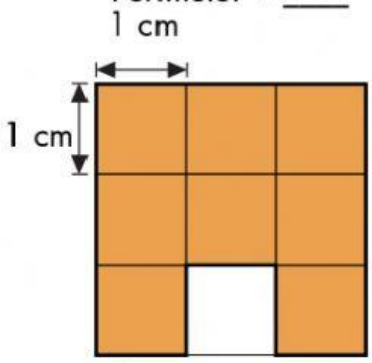

Area = ____

Perimeter = ____

LIVEWORKSHEETS

4. Tìm chu vi của hình dưới đây.

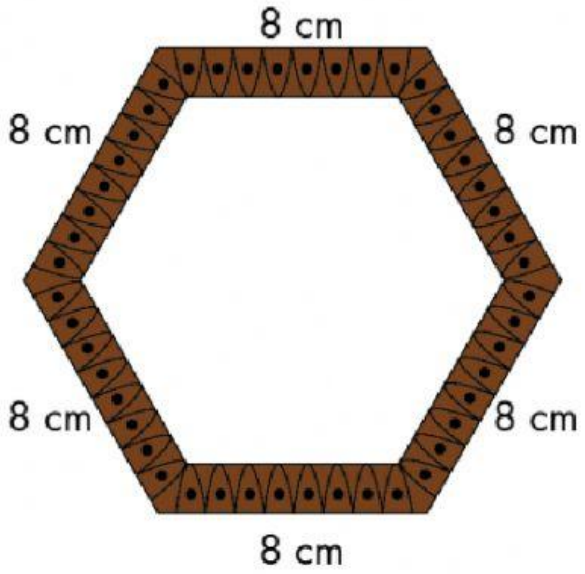

Trả lời: _____

5 Trong những hình dưới đây, hình nào có chu vi và diện tích phần màu đỏ nhỏ nhất? Biết rằng, mỗi ô vuông nhỏ có cạnh bằng 1cm.

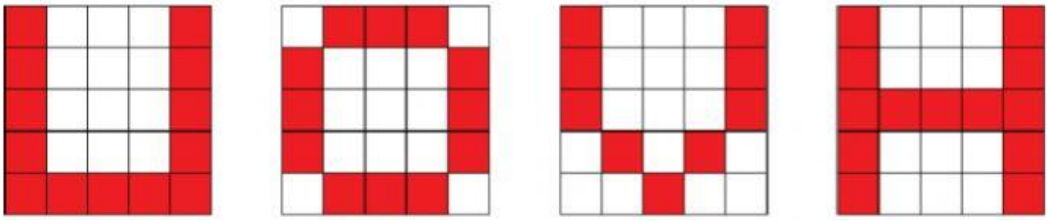

A B C D

Trả lời:

Hình có chu vi nhỏ nhất: _____

Hình có diện tích nhỏ nhất: _____

LIVEWORKSHEETS

6.

Tí cắt một hình chữ nhật ra thành nhiều mảnh. Sau đó, Tí ghép các mảnh đó lại thành một hình vuông. Biết hình chữ nhật ban đầu có chiều rộng là 2 cm, chiều dài là 8 cm. Hỏi hình vuông mới tạo thành có chu vi là bao nhiêu cm?

Trả lời: _____

7.

Một hình chữ nhật có diện tích bằng 21 cm^2. Các cạnh của hình chữ nhật đó có độ dài là một số tự nhiên xăng-ti-mét. Hỏi trong những số dưới đây, số nào có thể là chu vi của hình chữ nhật?

A. 21 cm **B**. 14 cm **C**. 10 cm **D**. 20 cm **E**. 30 cm

Trả lời: _____

LIVEWORKSHEETS