Nome: _____ Turma: _____

EXERCÍCIOS DE FIXAÇÃO

1. A imagem acima mostra o Sistema Solar.

a) O que é considerado o centro do Sistema Solar?

☐ Terra ☐ Sol ☐ Lua ☐ Saturno

b) Marque a frase correta.

☐ O Sol gira em torno dos planetas.

☐ Os planetas giram em torno do Sol.

2. Qual palavra define com precisão todos os elementos da imagem acima?

☐ estrelas ☐ planetas ☐ astros ☐ meteoros

3. O Sol é um planeta, um cometa ou uma estrela?

_____

LIVEWORKSHEETS

A TERRA EM MOVIMENTO

1. A Terra gira em torno de si mesma.

a) Como se chama esse movimento?

_____

b) Quanto tempo dura esse movimento?

_____

c) Esse movimento dá origem:

☐ às noites e aos dias ☐ às estações do ano

2. A Terra gira em torno do Sol.

a) Como se chama esse movimento?

_____

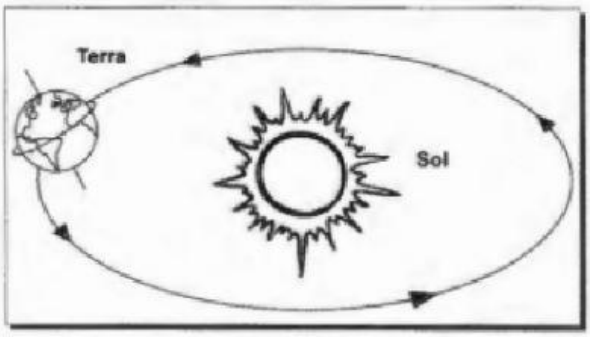

b) Quanto tempo a Terra leva para realizar essa trajetória completa?

_____

c) Esse movimento da Terra em torno do Sol dá origem:

☐ às noites e aos dias ☐ às estações do ano

3. Qual é o satélite natural da Terra? Anote ou desenhe-o.

LIVEWORKSHEETS

A LUA

1. A Lua tem luz própria? Explique.

_____

2. Sublinhe as frases corretas.

a) A Lua é o satélite artificial da Terra.

b) A Lua é a estrela mais próxima da Terra.

c) A Lua é o satélite natural da Terra.

d) A Lua é menor que a Terra.



3. Indique se a Lua está na fase **cheia**, **minguante**, **nova** ou **crescente**.

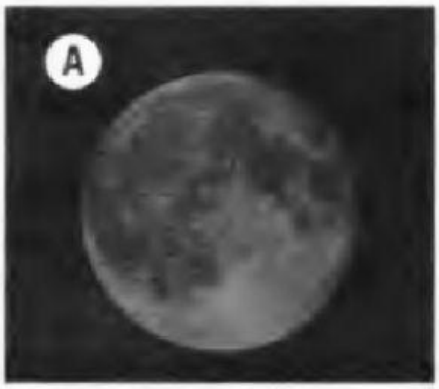

NASA

A Lua é pouco iluminada.

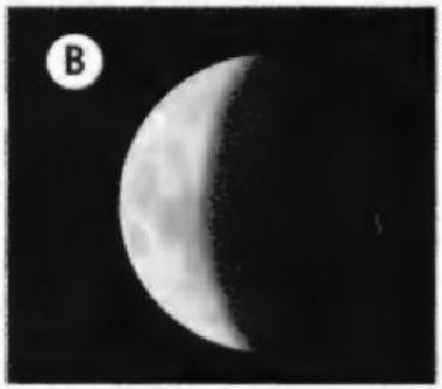

NASA

A Lua é parcialmente iluminada no lado oeste.

NASA

A Lua é totalmente iluminada.

NASA

A Lua é parcialmente iluminada no lado leste.

LIVEWORKSHEETS