NÚMEROS MIXTOS (FICHA 1) .

LEE CON ATENCIÓN …

NÚMERO MIXTO:

Está formado por un **NÚMERO ENTERO** + **UNA FRACCIÓN.**

Por ejemplo:

- **He comido una pizza y un cuarto ➜ 1 +** $\frac{1}{4}$
- **He comprado dos kilos y medio de pescado ➜ 2 +** $\frac{1}{2}$
- **En la jarra caben tres litros y dos tercios ➜ 3 +** $\frac{2}{3}$

Mira este otro ejemplo…

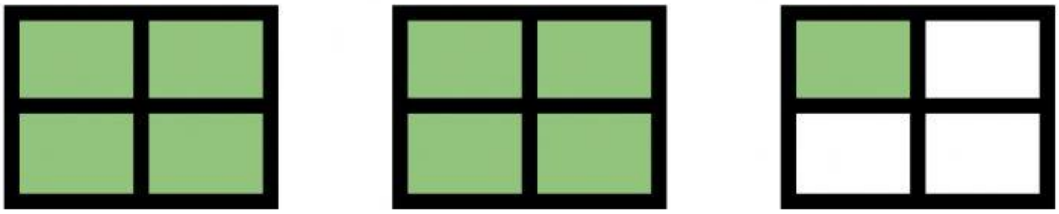

Puedo decir que me he comido *dos pizzas y un cuarto*, es decir…

$$2 + \frac{1}{4}$$

LIVEWORKSHEETS

AHORA TÚ ...

1. **Mira el dibujo y completa el NÚMERO MIXTO:**

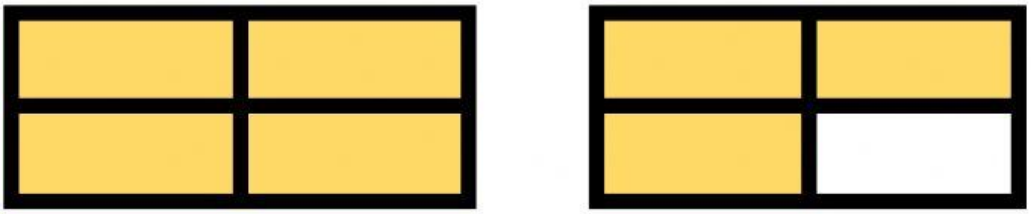

➜ **Uno y _____ cuartos** ➜ **1 + $\frac{3}{__}$**

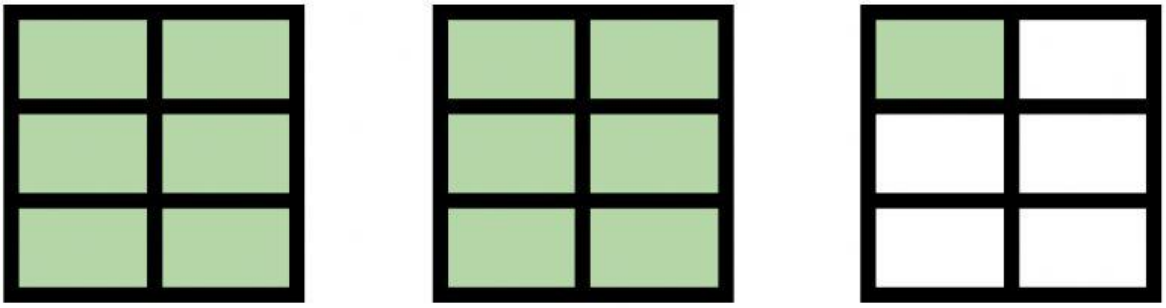

➜ **_____ y un sexto** ➜ **2 + $\frac{__}{__}$**



➜ **Cuatro y un _____** ➜ **+ $\frac{__}{__}$**

LIVEWORKSHEETS

2. Lee y completa el NÚMERO MIXTO:

- Uno y tres cuartos → $+ \frac{3}{__}$
- Dos y un cuartos → $2 + \frac{__}{__}$
- Cinco y dos tercios → $+ \frac{2}{__}$
- Uno y medio → $1 + \frac{__}{__}$
- Ocho y tres sextos → $+ \frac{__}{__}$
- Nueve y dos quintos → $+ \frac{__}{__}$
- Tres y dos cuartos → $+ \frac{__}{__}$

3. Lee y completa el NÚMERO MIXTO:

- $4 + \frac{1}{2}$ → Cuatro y un medio (o cuatro y medio)
- $2 + \frac{1}{3}$ → _____ y un _____
- $9 + \frac{3}{4}$ → _____ y _____ cuartos
- $5 + \frac{1}{8}$ → _____ y _____
- $2 + \frac{1}{2}$ → _____ y _____

LIVEWORKSHEETS